P. FONCIN

GÉOGRAPHIE

ANNÉE PRÉPARATOIRE

Notions préparatoires — Termes géographiques.

La France (Divisions administratives, Collines et Montagnes, Cours d'eau, Principales villes, Départements).

L'Europe physique et politique.

L'Asie — l'Afrique — l'Amérique — l'Océanie.

Librairie Armand Colin
103, Boulevard Saint-Michel, Paris

Prix net : 75 cent.

176e édition

P. FONCIN

Directeur honoraire de l'Enseignement secondaire, Inspecteur général honoraire de l'Université, Président de l'*Alliance française*.

GÉOGRAPHIE — ANNÉE PRÉPARATOIRE

DU GLOBE TERRESTRE[1]

1. Qu'est-ce que la *géographie*?

La **géographie** est la description de la surface de la Terre.

2. Quelle est la forme de la Terre?

La Terre est **ronde** comme une boule (fig. 1).



Fig. 1. — La Terre dans l'espace.

3. La Terre repose-t-elle sur quelque chose?

Non, la Terre ne repose sur rien ; c'est un globe qui roule dans l'espace.

4 Combien la Terre mesure-t-elle de kilom. de tour?

La Terre mesure quarante mille kilomètres de tour.

1. Pour les tout petits, voir l'*Année enfantine de Géographie*, de la Collection Jean BEDEL.

5. La Terre reste-t-elle immobile?

Non, la Terre ne reste pas immobile : elle fait un tour **sur elle-même** en un jour de 24 heures, et elle tourne **autour du Soleil** en une année de 365 jours 1/4.

6. Qu'est-ce qu'un jour de 24 heures?

Un **jour** de 24 heures est le temps que met la Terre à faire un tour **sur elle-même.**

7. Qu'est-ce qu'une année de 365 jours 1/4?

Une **année** de 365 jours 1/4 est le temps que met la Terre à faire un tour **autour du Soleil.**

8. De quel astre la Terre reçoit-elle sa lumière?

La Terre reçoit sa lumière du *Soleil.*

Fig. 2. — Globe terrestre.

GLOBES, CARTES, MAPPEMONDE

9. Comment représente-t-on la surface de la Terre?

On représente la surface de la Terre à l'aide de **globes** et de **cartes.**

10. Qu'est-ce qu'un *globe terrestre*?

Un **globe terrestre** (fig. 2) est une boule qui représente en petit ce que la Terre est en grand.

11. Qu'est-ce qu'une *carte*?

Une **carte** est la représentation, sur une feuille de papier, de toute la Terre ou seulement d'une partie de la Terre. (Telles sont les cartes de cet Atlas.)

12. Les cartes qui représentent la surface de toute la Terre n'ont-elles pas un nom particulier?

Oui, on donne le nom de **mappemondes** aux cartes qui représentent toute la Terre (voir page 2).

CONTINENTS

13. De quoi se compose la surface de la Terre?

La surface de la Terre se compose de **terre et d'eau.**

14. Dans quelles proportions les terres et l'eau sont-elles réparties à la surface du globe terrestre?

Les *terres* couvrent **un quart** de la surface du globe terrestre, et l'*eau* couvre les **trois autres quarts.**

15. Ainsi il y a beaucoup plus d'eau que de terres?

Oui, il y a **trois fois** plus d'eau que de terres.

16. Quel nom donne-t-on à cette immense étendue d'eau ?

On lui donne le nom de **mer** ou d'**océan.**

17. Qu'est-ce qu'un *continent ?*

Un **continent** est une immense étendue de terre.

18. Combien y a-t-il de continents ?

Il y a deux continents : l'**Ancien continent** et le **Nouveau continent**

19. Lequel de ces deux continents habitons nous ?

Nous habitons l'**Ancien continent.**

PARTIES DU MONDE

20. En combien de parties divise-t-on l'Ancien continent ?

On divise l'Ancien continent en trois parties, qui sont l'**Europe**, l'**Asie** et l'**Afrique.**

21. Quel nom donne-t-on au Nouveau continent ?

On donne au Nouveau continent le nom d'**Amérique.**

22. N'y a-t-il pas une cinquième partie du monde ?

Oui, il y a une cinquième partie du monde qu'on appelle l'**Océanie**, parce qu'elle se compose d'un grand nombre de terres ou *îles* disséminées dans l'**Océan.**

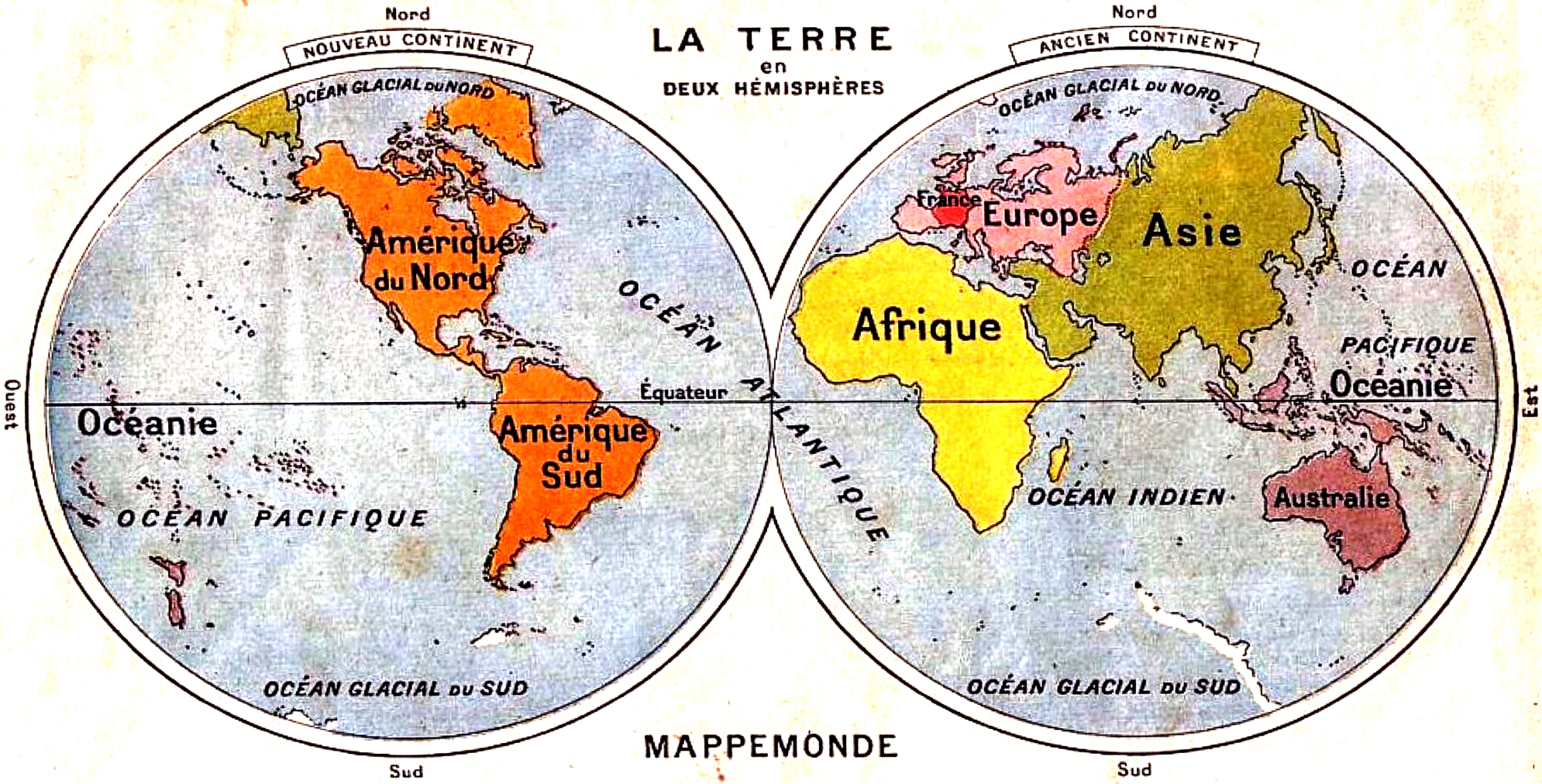

OBSERVATION. — La Terre étant ronde, on ne peut la représenter tout entière qu'en la supposant coupée en deux parties, qu'on nomme **hémisphères,** c'est-à-dire *demi-sphères.* — Toute la partie coloriée en bleu représente la *mer ;* les autres couleurs représentent les cinq parties du monde. Un simple coup d'œil permet de voir que la mer couvre les trois quarts de la surface de la Terre.

23. Quelles sont donc les cinq parties du monde?

Les cinq parties du monde sont : l'**Europe**, l'**Asie**, l'**Afrique**, l'**Amérique** et l'**Océanie**.

24. Laquelle des cinq parties du monde habitons-nous?

Nous habitons l'**Europe**.

25. Quelle contrée de l'Europe habitons-nous?

Nous habitons la **France**.

MERS ET OCÉANS

26. Qu'avons-nous appelé *mer* ou *océan*?

Nous avons appelé **mer** ou **océan** la vaste étendue d'eau salée qui couvre les



FIG. 3. — La mer.

trois quarts du globe et qui sépare les continents entre eux. Les mers sont parcourues par des navires.

27. En combien de parties principales divise-t-on la mer?

On divise la mer en cinq parties principales qui sont : l'océan **Pacifique**, le plus grand des océans; l'océan **Atlantique**; l'océan **Indien**; l'océan **Glacial du Nord** ou *arctique*, et l'océan **Glacial du Sud** ou *antarctique*.

POINTS CARDINAUX

28. Combien y a-t-il de *points cardinaux* et quels sont-ils?

Il y a **quatre** points cardinaux[1], qui sont le **Levant, Est** ou **Orient**; le **Couchant, Ouest** ou **Occident**; le **Nord** ou **Septentrion**; le **Midi** ou **Sud**.

29. Qu'est-ce que le *Levant, Est* ou *Orient*?

Le **Levant, Est** ou **Orient** (fig. 4) est le point du ciel où le Soleil se *lève*.

FIG. 4. — Si vous vous placez de manière à mettre sur votre droite le Soleil levant, l'*Ouest* sera à votre gauche, le *Nord* devant vous et le *Midi* derrière vous.

30. Qu'est-ce que le *Couchant, Ouest* ou *Occident*?

Le **Couchant, Ouest** ou **Occident**, est le point du ciel où le soleil se *couche*.

31. Qu'est-ce que le *Nord* ou *Septentrion*?

Le **Nord** ou **Septentrion** est le point du ciel qu'on a *devant* soi quand on a le Levant à sa droite et le Couchant à sa gauche.

1. Nous engageons les Maîtres à *orienter* leur classe, c'est-à-dire à indiquer sur le plafond les quatre points cardinaux. Ils pourront aussi, avec grand avantage, se servir d'une **Boussole**.

32. Qu'est-ce que le *Midi* ou *Sud*?

Le **Midi** ou **Sud** est le point qu'on a *derrière* soi quand on a le Levant à sa droite et le Couchant à sa gauche.

33. Comment appelle-t-on la partie *nord* d'un pays?

La partie **septentrionale**.

34. Comment appelle-t-on la partie *sud*?

La partie **méridionale**.

35. Comment appelle-t-on la partie *est*?

La partie **orientale**.

36. Comment appelle-t-on la partie *ouest*?

La partie **occidentale**.

37. De quelle manière dispose-t-on les quatre points cardinaux sur les cartes?

Sur les cartes (fig. 5), le **Nord** est en

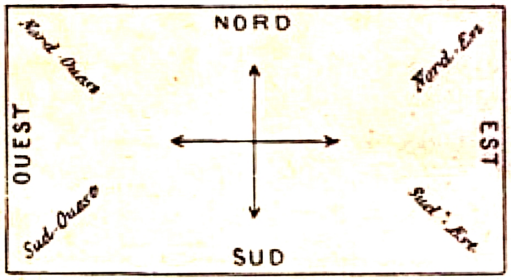

FIG. 5-6. — Orientation des cartes.

haut; le **Sud** en bas; l'**Est** à droite et l'**Ouest** à gauche.

38. N'y a-t-il pas d'autres points situés entre les quatre points cardinaux?

Il y a d'autres points situés entre les quatre points cardinaux; ce sont (fig. 5): le **Nord-Est**, entre le Nord et l'Est; — le **Nord-Ouest**, entre le Nord et l'Ouest; — le **Sud-Est**, entre le Sud et l'Est; — le **Sud-Ouest**, entre le Sud et l'Ouest.

[Les enfants seront habitués à chercher les points cardinaux et les points collatéraux.]

TERMES GÉOGRAPHIQUES

39. Qu'est-ce qu'une *île* ?

Une **île** (fig. 7) est une terre entourée d'eau de tous côtés.

Fig. 7. — Ile.



Sur les cartes.

40. Qu'est-ce qu'un *archipel* ?

Un **archipel** (fig. 8) est un groupe d'îles.



Fig. 8. — Archipel.



Sur les cartes.

41. Qu'est-ce qu'une *presqu'île* ou *péninsule* ?

Une **presqu'île** ou **péninsule** (fig. 9) est une terre qui est **presque une île**, c'est-

Fig. 9. — Presqu'île.

Sur les cartes.

à-dire une terre entourée d'eau de tous les côtés *moins un*, qui tient à la terre ferme.

42. Qu'est-ce qu'un *lac* ?

Un **lac** (fig. 10) est une étendue d'eau

Fig. 10. — Lac.



Sur les cartes.

entourée de terre de tous côtés.

43. Quel nom donne-t-on à un petit lac ?

Un petit lac s'appelle **étang.**



Fig. 11. — Détroit.

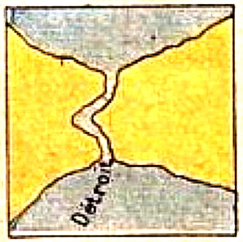

Sur les cartes.

44. Qu'est-ce qu'un *détroit* ?

Un **détroit** (fig. 11) est un bras de mer resserré entre deux terres.

45. Qu'est-ce qu'un *isthme* ?

Un **isthme** (fig. 12) est une bande de



Fig. 12. — Isthme.

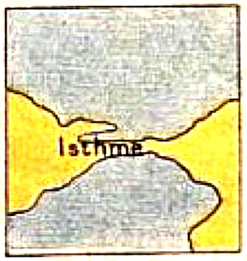

Sur les cartes.

terre resserrée entre deux mers.

46. Qu'est-ce qu'un *golfe* ?

Un **golfe** (fig. 13) est une partie de mer

Fig. 13. — Golfe.

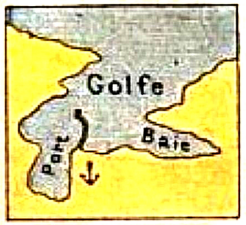

Sur les cartes.

qui s'avance dans la terre. — Un petit golfe prend le nom de *baie*.

47. Qu'est-ce qu'un *port* ?

Un **port** (fig. 14) est une baie que le



Fig. 14. — Port.

travail des hommes a rendue propre à recevoir les vaisseaux et à les abriter.

48. Qu'est-ce qu'un *cap* ou *promontoire* ?

Un **cap** ou **promontoire** (fig. 15) est

Fig. 15. — Cap.

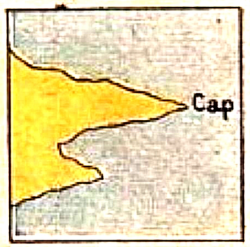

Sur les cartes.

une pointe de terre qui s'avance dans la mer.

49. Qu'appelle-t-on *rivage*, *côte* ou *littoral* ?

On appelle **rivage**, **côte** ou **littoral**,

les bords de la mer, c'est-à-dire toute partie de terre baignée par la mer.

50. Qu'est-ce qu'une *montagne ?*

Une **montagne** (fig. 16) est une masse

Fig. 16. — Montagne et vallée. Sur les cartes.

de terre beaucoup plus élevée que le pays environnant.

51. Quel nom donne-t-on aux petites montagnes ?

Une petite montagne s'appelle **colline**; une petite colline s'appelle **coteau**.

52. Qu'est-ce qu'une *chaîne* de montagnes ?

Une **chaîne de montagnes** est une *longue suite* de montagnes qui se relient les unes aux autres.

53. Qu'est-ce qu'une *vallée ?*

Une **vallée** (fig. 16) est une étendue de terrain encaissée entre deux chaînes de montagnes ou entre deux collines.

54. Qu'est-ce qu'un *volcan ?*

Un **volcan** (fig. 17) est une montagne qui vomit, par une ou plusieurs ouver-



Fig. 17. — Volcan. Sur les cartes.

tures nommées *cratères*, de la fumée, des flammes, de la cendre, et une sorte de roche fondue nommée **lave**.

55. Qu'est-ce qu'une *plaine ?*

Une **plaine** (fig. 18) est une étendue de terre à peu près unie.



Fig. 18. — Plaine. Sur les cartes.

56. Qu'est-ce qu'un *plateau ?*

Un **plateau** (fig. 19) est une plaine élevée.



Fig. 19. — Plateau. Sur les cartes.

57. Qu'est-ce qu'un *désert ?*

Un **désert** (fig. 20) est un vaste espace

Fig. 20. — Désert. Sur les cartes.

privé d'eau, stérile, inhabité, et brûlé par le soleil ou glacé.

58. Qu'est-ce qu'un *fleuve ?*

Un **fleuve** (fig. 21) est un grand cours d'eau qui se jette directement **dans** la mer

59 Qu'est-ce qu'une *rivière ?*

Une **rivière** (fig. 21) est un cours d'eau

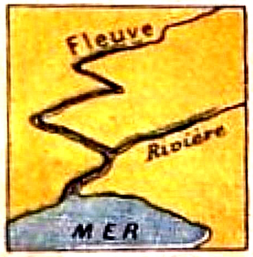

Fig. 21. — Fleuve et rivière. Sur les cartes.

qui se jette dans un fleuve ou dans une autre rivière.

60. Comment se forment les rivières et les fleuves ?

L'eau des pluies, des neiges ou des glaces, en coulant, forme des **ruisseaux**; la réunion de plusieurs ruisseaux forme une **rivière**; la réunion de plusieurs rivières forme un **fleuve**.

61. Comment coulent les cours d'eau ?

Les cours d'eau coulent de la montagne à la vallée, de la vallée à la plaine, de la plaine à la mer.

62. Qu'appelle-t-on *source* d'un fleuve ?

On appelle **source** d'un fleuve (fig. 22) l'endroit où le cours d'eau commence à couler. — On dit de même la *source* d'une rivière.

63. Qu'appelle-t-on *embouchure* d'un fleuve ?

On appelle **embouchure** d'un fleuve l'endroit où ce fleuve se jette dans la mer. — Une large embouchure s'appelle **estuaire**.

64. Qu'appelle-t-on *affluent* d'un fleuve ou d'une rivière ?

On appelle **affluent** d'un fleuve ou d'une rivière (fig. 22) tout cours d'eau qui se jette dans ce fleuve ou dans cette rivière.

65. Qu'est-ce qu'un *confluent* ?

Un **confluent** (fig. 22) est le lieu où deux cours d'eau se réunissent pour n'en former qu'un seul.

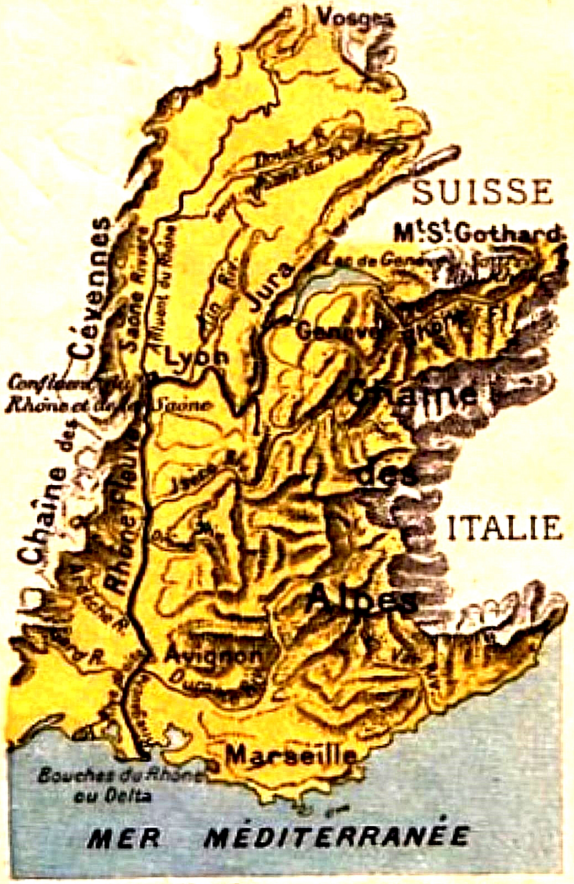

Fig. 22. — Un fleuve et ses affluents.

66. Qu'appelle-t-on *rive droite* d'un fleuve ou d'une rivière ?

On appelle **rive droite** d'un fleuve ou d'une rivière la rive qu'on a à sa *droite* quand on *descend* le fil de l'eau.

67. Qu'appelle-t-on *rive gauche* d'un fleuve ou d'une rivière ?

On appelle **rive gauche** d'un fleuve ou d'une rivière la rive qu'on a à sa *gauche* quand on *descend* le fil de l'eau.

68-69. Qu'appelle-t-on *bassin* d'un fleuve ?

On appelle **bassin** d'un fleuve toute l'étendue de pays arrosée par ce fleuve et par ses affluents.

[La meilleure démonstration des éléments de la géographie doit se faire hors de l'école, dans la campagne. Les enfants, guidés par leur maître, y trouveront en petit des exemples de fleuves, rivières, lacs, affluents, confluents, etc.]

LA FRANCE

DE LA PATRIE

70. Quel pays habitons-nous ?

Le pays que nous habitons, et qui est notre **patrie**, à nous Français, se nomme la **FRANCE**.

71. Quels sont les devoirs d'un bon Français envers sa patrie ?

Un bon Français doit s'instruire, respecter les lois, payer les impôts, servir sa patrie, et, s'il le faut, sacrifier sa vie pour elle.

72. Quelle est la *capitale* de la France ?

La capitale de la France est **PARIS**.

COMMUNES, HAMEAUX

73. Qu'est-ce qu'une *commune* ?

Une **commune** est une certaine étendue de territoire administrée par un *maire* assisté d'un *conseil municipal*.

74. Que comprend une commune ?

Une commune comprend un **chef-lieu de commune**, les **hameaux** qui en dépendent et tout le **territoire** avoisinant (champs, bois, prés, etc.).

75. Toutes les communes comptent-elles le même nombre d'habitants ?

Non, toutes les communes ne comptent pas le même nombre d'habitants ; il y a de petites communes, comme..., ..., ..., et de grandes communes, comme **Paris**, **Marseille**, **Lyon**, etc.

76. Quel nom particulier donne-t-on à une petite commune ?

On donne le nom de **village** (fig. 23)

Fig. 23. — Village.

à une petite commune.

77. Quel nom particulier donne-t-on à une commune de quelque importance ?

On donne le nom de **bourg** (fig. 24)

Fig. 24. — Bourg.

à une commune de quelque importance.

78. Quel nom particulier donne-t-on à une commune importante ?

On donne le nom de **ville** (fig. 25) à

Fig. 25. — Ville.

une commune importante. — Il y a de petites villes et de grandes villes.

79. Combien y a-t-il de communes en France ?

Il n'y a plus en France que **36 240** communes, depuis que l'Allemagne nous en a enlevé **1 700** à la suite de la guerre de 1870.

80. Combien la France compte-t-elle d'habitants ?

La France compte aujourd'hui près de **40 millions** d'habitants. La Prusse, en 1870, nous a fait perdre **1 600 mille** de nos concitoyens.

[Le maître tracera au tableau noir : 1° le plan de la classe ; 2° le plan de la maison d'école ; 3° le plan du chef-lieu de commune ; 4° la carte de la commune entière (chef-lieu, hameaux et territoire), voies de communication[1], configuration physique.]

DU CANTON

81. Qu'est-ce qu'un *canton* ?

Un **canton** est une étendue de territoire qui comprend *plusieurs communes*.

82. Quel nom donne-t-on à la plus importante commune d'un canton ?

On donne le nom de **chef-lieu de canton** à la plus importante commune d'un canton. — C'est là que se font le *tirage au sort* et la *revision*.

83. En combien de cantons la France est-elle divisée ?

La France est divisée en **2 915** cantons.

[Le maître tracera au tableau noir la carte du canton. Il indiquera les communes, les voies de communication, le relief et les cours d'eau.]

DE L'ARRONDISSEMENT

84. Qu'est-ce qu'un *arrondissement* ?

Un **arrondissement** est une étendue de territoire qui comprend *plusieurs cantons* et qui est administrée par un *sous-préfet* assisté d'un *conseil d'arrondissement*.

85. Quel nom donne-t-on à la plus importante commune d'un arrondissement ?

On donne le nom de **chef-lieu d'arrondissement** ou de **sous-préfecture** à la plus importante commune d'un arrondissement.

86. En combien d'arrondissements la France est-elle divisée ?

La France est divisée en **362** arrondissements.

[Le maître tracera la carte de l'arrondissement. Il indiquera la commune où est située l'école, les cantons, les principales voies de communication, le relief du sol ainsi que les principaux cours d'eau.]

DU DÉPARTEMENT

87. Qu'est-ce qu'un *département* ?

Un **département** est une étendue de territoire qui comprend *plusieurs arrondissements*, et qui est administrée par un **préfet** assisté d'un *conseil de préfecture* et d'un **conseil général**.

88. Quel nom donne-t-on à la plus importante commune d'un département ?

On donne le nom de **chef-lieu de département** ou de **préfecture** à la plus importante commune d'un département.

89. Combien la France comprend-elle de départements ?

La France ne comprend aujourd'hui que **86** départements, depuis que l'Allemagne lui a enlevé l'**Alsace-Lorraine**, qui représentait **trois** départements.

[Le maître tracera la carte du département. Indiquer les préfectures, les sous-préfectures, la commune où est située l'école, les principales voies de communication, les principaux cours d'eau, le relief du sol, les départements limitrophes.]

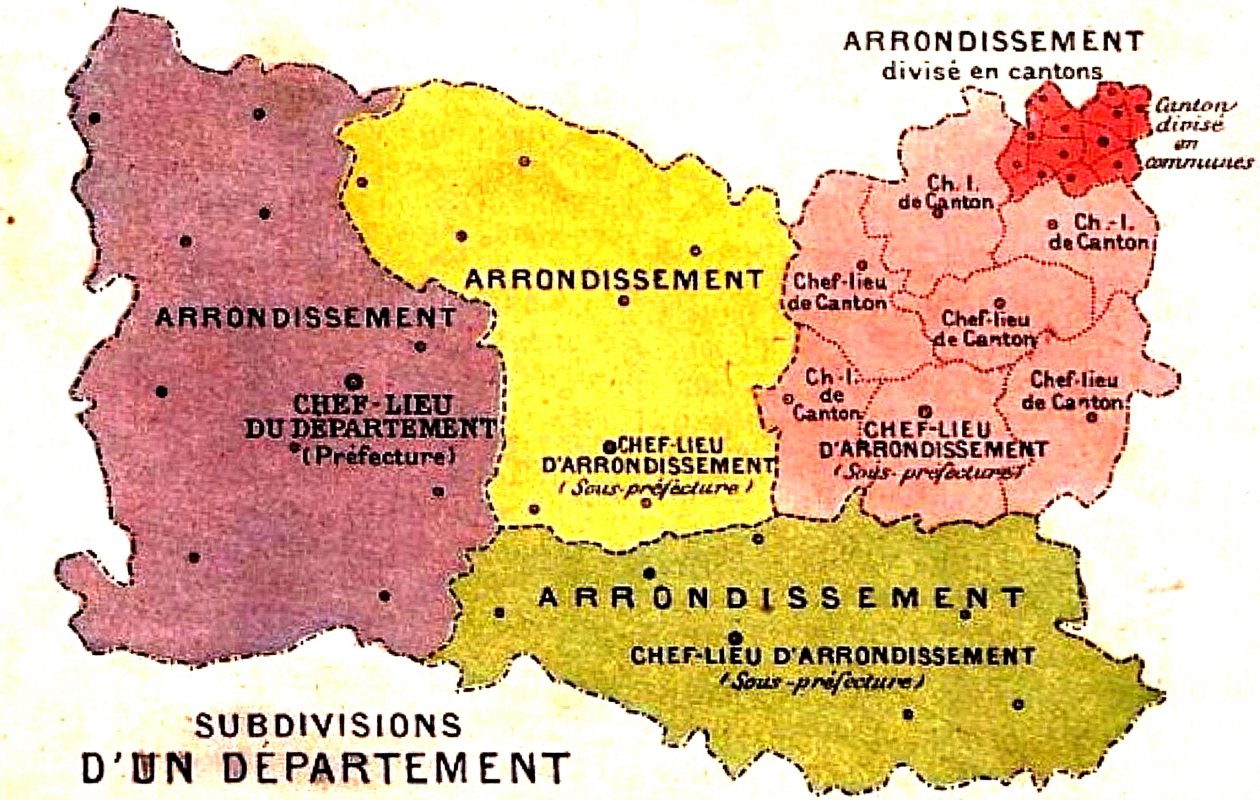

FIG. 26. — Un *département* se divise en *arrondissements*, un arrondissement en *cantons*, un canton en *communes*.

1. Voir *Première année de Géographie*, Maitre.

FRANCE

COLLINES ET MONTAGNES

90. Quelle est la forme de la France?

La France a la forme d'une figure de six côtés.

91. Par quelles mers et par quels pays la France est-elle bornée?

La France est bornée au **nord** par la mer du Nord, la Belgique et le Luxembourg; — à l'**est**, par l'Allemagne (Alsace-Lorraine), la Suisse et l'Italie; — au **sud**, par la Méditerranée et l'Espagne; — à l'**ouest**, par l'océan Atlantique; — au **nord-ouest**, par la Manche et le Pas de Calais qui la séparent de l'Angleterre.

92. Si l'on tirait une ligne droite de Bayonne à Givet, de quelle façon la France serait-elle divisée?

Si l'on tirait une ligne droite de Bayonne à Givet, la France serait divisée en deux régions : la région des **plaines** (partie basse) à gauche, et la région des **montagnes** à droite.

92 *bis*. Quelles sont les principales *plaines* de la France?

Les principales *plaines* de la France sont : la plaine de la *Flandre*, la plaine de *Normandie*, la plaine de la *Beauce*, la plaine de la *Sologne*, la plaine des *Landes* et la plaine du *bas Languedoc*.

93. Citez les principales *hauteurs* de la région des plaines.

Les principales *hauteurs* de la région des plaines sont : les collines de *Normandie*, les **monts de Bretagne** et les collines du *Poitou*.

94. Quelles sont les parties les plus *élevées* de la France sur ses frontières?

Les parties les plus *élevées* de la France *sur ses frontières* sont : au sud-ouest, la chaîne des **PYRÉNÉES**, qui sépare la France de l'Espagne; — au sud-est, le massif des **ALPES**, qui sépare la France de l'Italie; — à l'est, le **Jura**, qui sépare la France de la Suisse, — et les **Vosges**, qui marquent une partie de la limite de la France — vers l'Alsace-Lorraine.

94 *a*. Quelle est la partie montagneuse la plus élevée du *centre* de la France?

La partie montagneuse la plus élevée du *centre* de la France est le **Massif central** qui est bordé à l'est par la chaîne des *Cévennes*.

94 *b*. Quelles sont les autres hauteurs de la France dans la région élevée?

Les autres hauteurs de la France dans cette région sont : la *Côte-d'Or*, le plateau de *Langres*, les monts *Faucilles*, qui font suite à la chaîne des Cévennes; — le plateau de *Lorraine*, et le plateau des *Ardennes*.

DEVOIRS

[Répondez aux questions suivantes en consultant la carte.]

1. Qu'est-ce qu'un détroit (n° 44)?
2. Citez un détroit qui borne la France au nord.
3. De quel pays ce détroit sépare-t-il la France?
4. Citez un pays qui borne la France au nord.
5. Citez trois pays qui bornent la France à l'est.
6. Qu'est-ce qu'une mer (n° 16)?
7. Par quelle mer et par quel royaume la France est-elle bornée au sud?
8. Par quel océan et par quelle mer la France est-elle bornée à l'ouest?
9. Quelles sont les frontières de terre de la France?
10. Quelles sont les frontières de mer?
11. Qu'est-ce qu'une chaîne de montagnes?
12. Citez une grande chaîne de montagnes qui sépare la France de l'Espagne.
13. Citez une grande chaîne de montagnes qui sépare la France de l'Italie.
14. Citez une grande chaîne de montagnes qui s'étend des Pyrénées à la Côte-d'Or.
15. Qu'est-ce qu'un plateau (n° 56).
16. Citez un vaste massif qui couvre tout le centre de la France.
17. Citez, dans ce massif, des monts qui s'étendent sur l'ancienne province d'Auvergne.
18. Citez, dans le même massif, des monts qui s'étendent sur l'ancienne province du Limousin.
19. Citez une chaîne de montagnes qui sépare la France de la Suisse.
20. Citez une autre chaîne de montagnes qui sépare la France de l'Alsace.
21. Citez, dans les Alpes, un mont de 4 810 mètres, le plus élevé de toute l'Europe.
22. Citez, dans les Alpes, un autre mont de plus de 2 000 mètres, sous lequel passe le chemin de fer qui va de France en Italie.
23. Citez, dans les Pyrénées, un mont de 3 404 mètres.
24. Citez, dans le Massif central, trois monts : le premier de 1 465 mètres; le second, de 1 886 mètres; le troisième, de 1 858 mètres.
25. Citez, dans les Cévennes, un mont de 1 750 mètres.
26. Citez quatre plaines dans la partie basse de la France, et une plaine dans la partie haute.
27. Citez des collines qui s'étendent sur l'ancienne province de Normandie.
28. — sur l'ancienne province de Bretagne.
29. — sur l'ancienne province du Poitou.
30. Qu'est-ce qu'un fleuve (n° 58)?
31. — la source d'un fleuve (n° 62)?
32. — l'embouchure d'un fleuve (n° 63)?
33. Citez un fleuve qui prend sa source dans la Côte-d'Or et se jette dans la Manche.
34. Citez un fleuve qui prend sa source dans les Cévennes et qui se jette dans l'océan Atlantique.
35. Citez un fleuve qui prend sa source dans les Pyrénées et qui se jette dans l'océan Atlantique.
36. Citez un fleuve qui prend sa source dans les Alpes et qui se jette dans la mer Méditerranée.
37. Qu'est-ce qu'une presqu'île (n° 41)?
38. Citez une presqu'île qui s'avance dans la Manche.
39. Citez une autre presqu'île qui s'avance dans l'océan Atlantique.
40. Qu'est-ce qu'un golfe (n° 46)?
41. Citez un golfe situé entre la presqu'île du Cotentin et l'embouchure de la Seine.
42. Citez un golfe qui s'enfonce entre la presqu'île de Bretagne et la presqu'île du Cotentin.
43. Citez un grand golfe du sud-ouest de la France et formé par l'océan Atlantique.
44. Citez un grand golfe du sud de la France et formé par la mer Méditerranée.
45. Citez trois plateaux dans la partie haute de la France.

FRANCE
BORNES ET CÔTES
RELIEF DU SOL
Échelle 1/7.000.000

NORD
SUD
OUEST
EST

ANGLETERRE
Mer du Nord
Ile de Wight (A)
Pas de Calais
Cap Gris Nez
Dunkerque F.
BELGIQUE
Lys R.
Lille
Escaut
Plaine de la Flandre
Meuse F.
Plateau des Ardennes
Sambre R.
Givet
Rhin F.
MANCHE
Cap de la Hague
Presqu'île du Cotentin
Golfe du Calvados
Somme R.
Amiens
Oise R.
LUXEMBOURG
ALLEMAGNE
Ile Guernesey (A)
Ile Jersey (A)
Rouen
Seine R.
Aisne R.
Caen
Plaine de Normandie
Golfe de St Malo
Collines de Normandie
Orne R.
Eure R.
Oise R.
Marne R.
Plaines de la Champagne
Moselle R.
Plateau de Lorraine
Strasbourg
Nancy
ALSACE
Vosges
Forêt Noire
Ouessant (F)
Monts de Bretagne
Presqu'île de Bretagne
Rance R.
Paris
Plaine de la Beauce
Meuse F.
Mts Faucilles
Rhin F.
Mayenne R.
Sarthe R.
Loir R.
Loire F.
Orléans
Loing R.
Yonne R.
Seine R.
Troyes
Aube R.
Plateau de Langres
Saône R.
Lorient
Ile de Groix (F)
Vilaine R.
St Nazaire
Nantes
Maine R.
Tours
Plne de la Sologne
Doubs R.
Bâle
Aar R.
Lac de Constance
Rhin F.
Belle-Ile (F)
Loire F.
Bourges
Chaînes du Jura
Côte d'Or
SUISSE
Berne
Aare R.
Ile de Noirmoutier (F)
Ile d'Yeu (F)
Collines du Poitou
Cher R.
Indre R.
Lac de Genève
Massif du St Gothard
OCÉAN ATLANTIQUE
Ile de Ré (F)
La Rochelle
Rochefort
Vienne R.
Creuse R.
Allier R.
Saône R.
Ain R.
Rhône F.
Mt Blanc
Ile d'Oléron (F)
Limoges
Lyon
Rhône F.
Massif des Alpes
Puy de Dôme
Monts d'Auvergne
Loire F.
Charente R.
Monts du Limousin
Mt Dore
Isère R.
Mont-Cenis
ITALIE
Massif central
Cévennes
Gironde F.
Bordeaux
Isle R.
Dordogne R.
Mt Mézenc
Mt Pilat
Plomb du Cantal
Durance R.
Plaine des Landes
Golfe de Gascogne
Lot R.
Garonne F.
Agen
Aveyron R.
Tarn R.
Rhône F.
Avignon
Nice
Adour R.
Gave de Pau
Bayonne
Gers R.
Toulouse
Ariège R.
Chaîne des Pyrénées
Plaine du Bas Languedoc
Hérault R.
Aude R.
Marseille
Toulon
Iles d'Hyères (F)
Golfe du Lion
Corse (F)
Pic de Nethou
ESPAGNE
Cap de Creus
MÉDITERRANÉE

— Légende —
Limites de la France
jaune de 0 à 100 mètres
jaune foncé de 100 à 200 m.
rose de 200 à 500 m.
rose foncé de 500 à 1000 m.
violet au-dessus de 1000 m.
Directions des montagnes
△4810 Hauteur en mètres au-dessus du niveau de la mer.

Fig. 27. — La montagne.

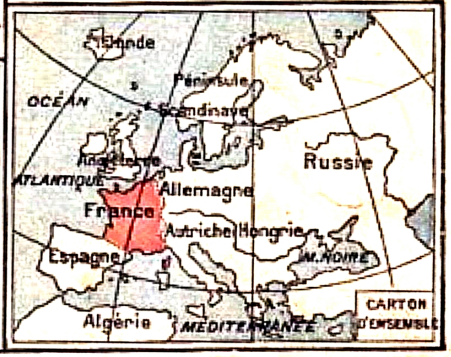

FRANCE

ÉTUDE DES COURS D'EAU.

95. Par quels fleuves la France est-elle arrosée?

La France est arrosée par quatre fleuves principaux, qui sont : la **Seine**, la **Loire**, la **Garonne** et le **Rhône**.

Depuis 1870, par la perte de l'**Alsace-Lorraine**, la France n'a plus sa limite naturelle du **Rhin**.

96. En combien de bassins la France se divise-t-elle?

La France se divise en *cinq* bassins principaux, qui sont : le bassin de la **Seine**, — le bassin de la **Loire**, — le bassin de la **Garonne**, — le bassin du **Rhône**, — et le bassin du **Rhin**, auquel on rattache les bassins de la Meuse et de l'Escaut.

97. Qu'y a-t-il de particulier sur le bassin du Rhin?

Le bassin du Rhin, qui s'étend presque en entier sur la Suisse, l'Allemagne et la Hollande, n'occupe qu'une faible partie du territoire français.

AFFLUENTS DE LA SEINE

98. Quels sont les affluents de la Seine, rive droite?

Les affluents de la **Seine**, rive droite, sont : l'*Aube*, — la *Marne*, — et l'*Oise*, grossie de l'*Aisne*.

99. Quels sont les affluents de la Seine, rive gauche?

Les affluents de la **Seine**, rive gauche, sont : l'*Yonne*, — le *Loing*, — et l'*Eure*.

AFFLUENTS DE LA LOIRE

100. Quels sont les affluents de la Loire, rive droite?

Les affluents de la **Loire**, rive droite, sont : — la *Nièvre*, — et la *Maine* formée de la *Mayenne* et de la *Sarthe* grossie du *Loir*.

101. Quels sont les affluents de la Loire, rive gauche?

Les affluents de la **Loire**, rive gauche, sont : l'*Allier*, — le *Loiret*, — le *Cher*, — l'*Indre*, — la *Vienne* grossie de la *Creuse*, — et la *Sèvre Nantaise*.

AFFLUENTS DE LA GARONNE

102. Quels sont les affluents de la Garonne, rive droite?

Les affluents de la **Garonne**, rive droite, sont : l'*Ariège*, — le *Tarn* grossi de l'*Aveyron*, — le *Lot*, — et la *Dordogne*, qui reçoit : 1° la *Vézère* grossie de la *Corrèze*; 2° l'*Isle*.

103. Quels sont les affluents de la Garonne, rive gauche?

Les affluents de la **Garonne**, rive gauche, sont : le *Gers*, — et la *Baïse*.

AFFLUENTS DU RHÔNE

104. Quels sont les affluents du Rhône, rive droite?

Les affluents du **Rhône**, rive droite, sont : l'*Ain*, — la *Saône* grossie du *Doubs*, l'*Ardèche*, — et le *Gard*.

105. Quels sont les affluents du Rhône, rive gauche?

Les affluents du **Rhône**, rive gauche, sont : l'*Isère*, — la *Drôme*, — et la *Durance*.

AFFLUENTS DU RHIN

106. Quel est l'affluent français du Rhin?

L'affluent français du **Rhin** est la *Moselle*, qui reçoit la *Meurthe*.

MEUSE. — ESCAUT

106 *bis*. Citez deux fleuves qui ont leur source en France et leur embouchure dans la mer du Nord.

La **Meuse** et l'**Escaut**.

FLEUVES CÔTIERS

107. Citez les fleuves côtiers.

Les fleuves côtiers sont : la *Somme* et l'*Orne*, qui se jettent dans la *Manche*, — la *Vilaine*, la *Charente* et l'*Adour* qui se jettent dans l'océan Atlantique; — l'*Aude*, l'*Hérault* et le *Var*, qui se jettent dans la mer Méditerranée.

DEVOIRS

1. Qu'appelle-t-on bassin d'un fleuve (n° 68)?
2. Qu'est-ce que l'affluent d'un fleuve (n° 64)?
3. Quel nom donne-t-on au lieu où une rivière se jette dans un fleuve (n° 65)?
4. Qu'appelle-t-on rive droite d'un fleuve (n° 66)? — rive gauche?
5. Par quels grands fleuves la France est-elle arrosée?
6. En combien de bassins la France est-elle divisée, et quels sont ces bassins?
7. Dans quelle montagne la Seine prend-elle sa source? — Dans quelle mer se jette-t-elle? — Quels sont ses affluents?
8. Dans quelle montagne la Loire prend-elle sa source? — Dans quelle mer se jette-t-elle? — Quels sont ses affluents?
9. Dans quelle montagne la Garonne prend-elle sa source? — Dans quelle mer se jette-t-elle? — Quels sont ses affluents?
10. Dans quelle montagne le Rhône prend-il sa source? — Dans quelle mer se jette-t-il? — Quels sont ses affluents?
11. Quel est l'affluent de l'Oise?
12. De quelles rivières la Maine est-elle la réunion?
13. Quel est l'affluent du Tarn? — **14.** de la Vézère? — **15.** de la Saône? — **16.** de la Moselle?
17. Dans quel fleuve se jettent l'Aube? — le Cher? — la Vienne? — l'Allier? — l'Yonne? — le Lot? — le Tarn? — le Gers? — la Dordogne? — l'Ardèche? — la Saône? — la Moselle? — l'Eure? — la Marne? — la Nièvre? — l'Indre? — l'Oise? — la Drôme? — l'Isère? — le Gard? — l'Ain? — la Durance? — la Baïse?
18. Dans quelle mer se jettent l'Escaut? — la Somme? — la Charente? — l'Adour? — le Var? — l'Hérault? — l'Orne? — l'Aude? — la Vilaine?
19. Quels sont les cours d'eau qui descendent des collines de Normandie? — des collines de Bretagne? — du Massif central? — des Pyrénées? — des Cévennes? — des Alpes? — du Jura? — des Vosges? — de la Côte-d'Or?

FRANCE
COURS D'EAU

ANGLETERRE
MANCHE
MER DU NORD
BELGIQUE
ESPAGNE
SUISSE
ITALIE
ALLEMAGNE
OCÉAN ATLANTIQUE
MÉDITERRANÉE
Golfe de Gascogne
Golfe du Lion
Pyrénées
Massif central
Massif des Alpes
Plateau des Ardennes
Plateau de Langres
Plaine de Flandre
Collines de Normandie
Collines de Bretagne
Vosges
Forêt Noire
Jura
Corse
Île de Wight (A)
Île Guernesey (A)
Île Jersey (A)
Île d'Ouessant (F)
Belle-Île (F)
I. de Noirmoutier (F)
I. d'Yeu (F)
I. de Ré (F)
I. d'Oléron (F)
Îles d'Hyères (F)
Cap de la Hague
Pas de Calais
Cap Gris-Nez
Cap de Creus
Delta du Rhône
BASSIN DE LA SEINE
BASSIN DE LA LOIRE
BASSIN DU RHIN
BASSIN DU RHÔNE
BASSIN DE LA GARONNE
Seine F.
Loire F.
Rhin F.
Rhône F.
Garonne F.
Meuse
Escaut
Marne
Oise R.
Aisne R.
Somme R.
Moselle
Saône R.
Doubs R.
Yonne R.
Allier R.
Cher R.
Vienne R.
Creuse R.
Indre R.
Sarthe R.
Mayenne R.
Oudon R.
Vilaine R.
Aulne R.
Rance R.
Blavet R.
Orne R.
Vire R.
Eure R.
Aube R.
Loing R.
Maine R.
Thouet R.
Sèvre Nantaise R.
Sèvre Niortaise R.
Charente R.
Dordogne R.
Isle R.
Vézère R.
Corrèze R.
Lot R.
Tarn R.
Aveyron R.
Agout R.
Adour R.
Gave de Pau
Gave d'Oloron
Nive R.
Bidassoa R.
Gers R.
Ariège R.
Aude R.
Hérault R.
Gard R.
Durance R.
Var R.
Isère R.
Drôme R.
Ain R.
Aar R.
Lac de Genève
Lac de Constance
Échelle de 1/7.000.000
Kilomètres
0 50 100 150
Limites d'États
Nord
Sud
Ouest
Est

Fig. 28. — Le cours d'eau.



La source du cours d'eau.

Affluent. Confluent.

L'arrivée à la mer.

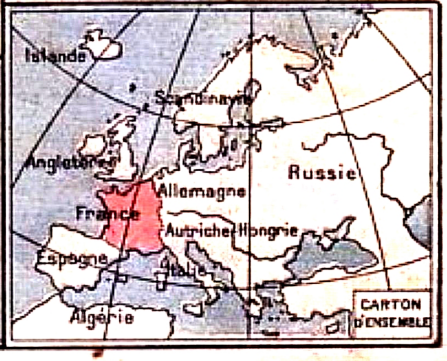

DÉPARTEMENTS	CHEFS-LIEUX	SOUS-PRÉFECTURES
1. *Plaines du Nord, de Paris, de Champagne.*		
Nord (Flandre [1]).	**LILLE** [2].....	Dunkerque, Valenciennes, Douai, Cambrai, Hazebrouck, Avesnes.
Pas-de-Calais (Artois et Picardie).	*Arras*.....	Boulogne, Saint-Omer, Béthune, Saint-Pol, Montreuil.
Somme (Picardie).	*Amiens*, s/ la Somme.	Abbeville, Péronne, Doullens, Montdidier.
Oise (Ile-de-France).	*Beauvais*.....	Compiègne, Clermont, Senlis.
Aisne (Ile-de-France et Picardie).	*Laon*.....	Saint-Quentin, Château-Thierry, Vervins, Soissons.
Marne (Champagne).	*Châlons-s/-Marne*..	REIMS, Épernay, Vitry-le-François, Ste-Menehould.
Aube (Champagne).	*Troyes*, sur la Seine.	Bar-sur-Aube, Nogent-sur-Seine, Arcis-sur-Aube, Bar-sur-Seine.
Seine-et-Marne (Ile-de-France).	*Melun*, sur la Seine..	Coulommiers, Fontainebleau, Meaux, Provins.
Seine (Ile-de-France).	**PARIS**, sur la Seine.	.....
Seine-et-Oise (Ile-de-France).	*Versailles*.....	Pontoise, Corbeil, Mantes, Rambouillet, Étampes.
Eure-et-Loir (Orléanais).	*Chartres*, sur l'Eure.	Dreux, Nogent-le-Rotrou, Châteaudun.
Loiret (Orléanais).	*Orléans*, sur la Loire.	Montargis, Gien, Pithiviers.
2. *Plateau lorrain.*		
Ardennes (Champagne).	*Mézières*, s/ la Meuse.	Sedan, Rethel, Vouziers, Rocroi.
Meuse (Lorraine).	*Bar-le-Duc*.....	Verdun, Commercy, Montmédy.
Meurthe-et-Moselle (Lorraine).	**NANCY**.....	Lunéville, Toul, Briey.
Vosges (Lorraine).	*Épinal*, s/ la Moselle.	Saint-Dié, Remiremont, Mirecourt, Neufchâteau.
Hte-Marne (Champagne).	*Chaumont*, sur la Marne.	Langres, Vassy.

DÉPARTEMENTS	CHEFS-LIEUX	SOUS-PRÉFECTURES
3. *Normandie, Bretagne, Vendée.*		
Seine-Inférieure (Normandie).	**ROUEN**, sur la Seine.	LE HAVRE, Dieppe, Yvetot, Neufchâtel.
Eure (Normandie).	*Évreux*.....	Louviers, Bernay, Les Andelys, Pont-Audemer.
Calvados (Normandie).	*Caen*.....	Lisieux, Bayeux, Falaise, Vire, Pont-l'Evêque.
Manche (Normandie).	*Saint-Lô*.....	Cherbourg, Avranches, Coutances, Valognes, Mortain.
Orne (Normandie).	*Alençon*.....	Argentan, Domfront, Mortagne.
Finistère (Bretagne).	*Quimper*.....	Brest, Morlaix, Châteaulin, Quimperlé.
Côtes-du-Nord (Bretagne).	*Saint-Brieuc*.....	Dinan, Guingamp, Lannion, Loudéac.
Morbihan (Bretagne).	*Vannes*.....	Lorient, Pontivy, Ploermel.
Ille-et-Vilaine (Bretagne).	*Rennes*, s/ la Vilaine.	Saint-Malo, Fougères, Vitré, Montfort, Redon.
Loire-Inférieure (Bretagne).	**NANTES**, sur la Loire.	Saint-Nazaire, Châteaubriant, Ancenis, Paimbœuf.
Vendée (Poitou).	*La Roche-sur-Yon*.	Les Sables-d'Olonne, Fontenay-le-Comte.
4. *Plaines de la Loire.*		
Mayenne (Maine).	*Laval*, sur la Mayenne.	Mayenne, Château-Gontier.
Sarthe (Maine).	*Le Mans*, s/ la Sarthe.	La Flèche, Mamers, Saint-Calais.
Maine-et-Loire (Anjou).	*Angers*, sur la Maine.	Cholet, Saumur, Baugé, Segré.
Indre-et-Loire (Touraine).	*Tours*, sur la Loire..	Chinon, Loches.
Loir-et-Cher (Orléanais).	*Blois*, sur la Loire....	Vendôme, Romorantin.
Cher (Berry et Bourbonnais).	*Bourges*.....	Saint-Amand, Sancerre.
Indre (Berry).	*Châteauroux*, près de l'Indre.....	Issoudun, Le Blanc, La Châtre.
Vienne (Poitou et Anjou).	*Poitiers*.....	Châtellerault, Montmorillon, Loudun, Civray.
Deux-Sèvres (Poitou).	*Niort*.....	Parthenay, Bressuire, Melle.

1. Autrefois la France était divisée en 32 provinces (voir la petite carte, p. 17) qui disparurent en 1790 et formèrent 86 départements : ainsi le département de la Côte-d'Or fut formé avec une partie du territoire de la Bourgogne. — Ces indications, qui sont un renseignement très utile, se retrouveront dans notre *Première année de Géographie*.

2. Les villes dont les noms sont imprimés en **MAJUSCULES** ont plus de 100 000 habitants. — **Paris** en compte près de 3 millions.

ÉTUDE DES VILLES.

Dunkerque (Nord), port très actif sur la mer du Nord.

Boulogne (Pas-de-Calais), port sur la Manche.

LILLE (Nord), la plus grande ville du nord de la France, *usines métallurgiques* et fabriques de *toiles*.

Amiens (Somme), sur la Somme; industrie des *tissus de laine* et des *velours de coton*; belle cathédrale.

Saint-Quentin (Aisne), sur la Somme; industrie du *coton*.

REIMS (Marne), draps et flanelle; commerce de *vins de Champagne*; superbe cathédrale.

Nancy (Meurthe-et-Moselle), sur la Meurthe; grande et belle ville industrielle.

Verdun (Meuse), sur la Meuse; place forte sur notre frontière de l'Est.

Epinal (Vosges), s/ la Moselle; place f.; imageries.

ROUEN (Seine-Inf.), sur la Seine; ind. cotonnière.

LE HAVRE (Seine-Inférieure), grand port, à l'embouchure de la Seine, commerce avec l'Angleterre et l'Amérique du Nord.

Cherbourg (Manche), port milit. sur la Manche.

PARIS (Seine), sur la Seine (2 888 000 hab.); la ville la plus peuplée de l'Europe après Londres; siège du gouvernement de la République; point de départ de presque toutes les grandes lignes de chemins de fer; aspect général luxueux: monuments et musées admirables. Camp retranché.

Versailles (Seine-et-Oise), magnifique château.

Nevers (Nièvre), au confluent de la Nièvre et de la Loire; fabriques de faïences et de porcelaines; forges importantes.

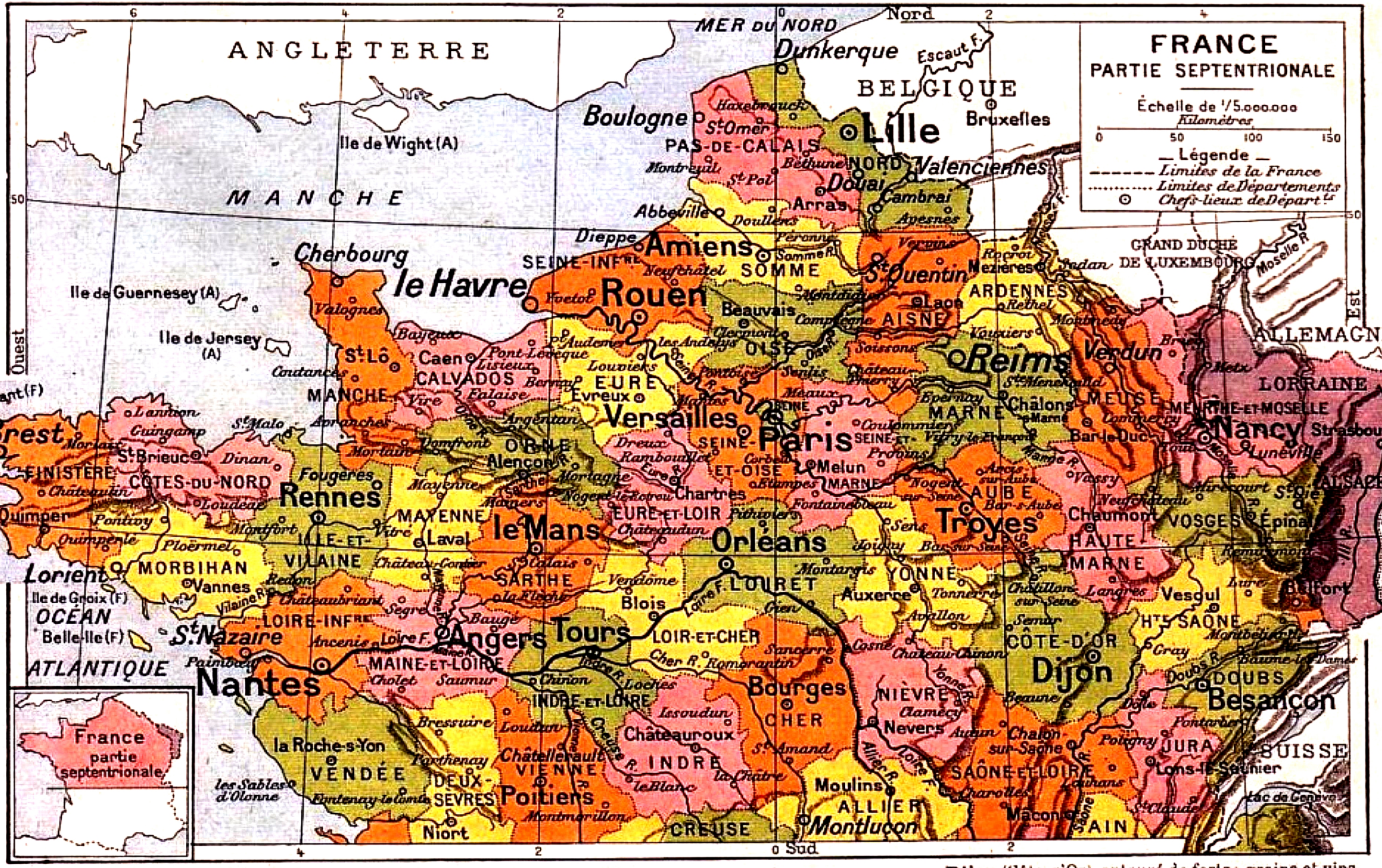

Orléans (Loiret), sur la Loire, vinaigre renommé. — Jeanne d'Arc enleva cette ville aux Anglais après un siège célèbre (1429).

Tours (Indre-et-Loire), sur la Loire, soieries.

NANTES (Loire-Inférieure), sur la Loire, grand port, conserves alimentaires; construction de navires.

Saint-Nazaire (Loire-Inférieure), port à l'embouchure de la Loire, centre de nos relations avec l'Amérique centrale.

Angers (Maine-et-Loire), sur la Maine; ardoisières.

Le Mans (Sarthe), sur la Sarthe; toiles.

Rennes (Ille-et-Vilaine), sur la Vilaine; grand marché agricole, beurre.

Brest (Finistère), notre 1er grand port militaire.

Troyes (Aube), sur la Seine; bonneterie et industrie du coton.

Dijon (Côte-d'Or), entouré de forts; grains et vins, moutarde, pains d'épices.

Besançon (Doubs), sur le Doubs; place très forte; horlogerie.

Bourges (Cher), fonderie de canons.

Montluçon (Allier), sur le Cher; glaces et produits chimiques.

Mâcon (Saône-et-Loire), sur la Saône; vins.

DÉPARTEMENTS	CHEFS-LIEUX	SOUS-PRÉFECTURES
5. *Massif central.*		
Allier (Bourbonnais).	*Moulins*, sur l'Allier.	Montluçon, Gannat, Lapalisse.
Creuse (Marche).	*Guéret*, sur la Creuse.	Aubusson, Bourganeuf, Boussac.
Haute-Vienne (Limousin et Marche).	*Limoges*, s/ la Vienne.	Saint-Yrieix, Rochechouart, Bellac.
Dordogne (Guyenne et Gascogne).	*Périgueux*, sur l'Isle.	Bergerac, Sarlat, Ribérac, Nontron.
Lot (Guy. et Gasc.).	*Cahors*, sur le Lot...	Figeac, Gourdon.
Tarn (Languedoc).	*Albi*, sur le Tarn....	Castres, Gaillac, Lavaur.
Aveyron (Guyenne et Gascogne).	*Rodez*, sur l'Aveyron.	Millau, Villefranche de Rouergue, Saint-Affrique, Espalion.
Lozère (Languedoc).	*Mende*, sur le Lot...	Marvejols, Florac.
Haute Loire (Languedoc et Auvergne).	*Le Puy*, sur la Loire.	Brioude, Yssingeaux.
Loire (Lyonnais).	**SAINT-ÉTIENNE**, sur le Furens.	Roanne, Montbrison.
Puy-de-Dôme (Auvergne).	*Clermont-Ferrand*.	Thiers, Riom, Ambert, Issoire.
Corrèze (Limousin).	*Tulle*, sur la Corrèze.	Brive, Ussel.
Cantal (Auvergne).	*Aurillac*.....	Saint-Flour, Mauriac, Murat.
6. *Plaines du Sud-Ouest.*		
Charente-Infre (Aunis et Saintonge).	*La Rochelle*.....	Rochefort, Saintes, Saint-Jean-d'Angely, Marennes, Jonzac.
Charente (Angoumois).	*Angoulême*, sur la Charente.....	Cognac, Barbezieux, Ruffec, Confolens.
Gironde (Guyenne et Gascogne).	**BORDEAUX**, sur la Garonne.....	Libourne, Bazas, Blaye, La Réole, Lesparre.
Lot-et-Garonne (Guyenne et Gascogne).	*Agen*, sur la Garonne.	Villeneuve-sur-Lot, Marmande, Nérac.
Tarn-et-Garonne (Guy. et Gascogne).	*Montauban*, sur le Tarn.....	Moissac, Castel Sarrazin.
Landes (Guy., Gasc.)	*Mont-de-Marsan*..	Dax, Saint-Sever.
7. *Pyrénées.*		
Basses-Pyrénées (Béarn).	*Pau*.....	Bayonne, Oloron, Orthez, Mauléon.
Hautes-Pyrénées (Guy. et Gasc).	*Tarbes*, sur l'Adour..	Baguères-de-Bigorre, Argelès.
Haute-Garonne (Guy. et Gasc.).	**TOULOUSE**, sur la Garonne.....	Saint-Gaudens, Muret, Villefranche-de-Lauraguais.
Ariège (comté de Foix)	*Foix*, sur l'Ariège...	Pamiers, Saint-Girons.
Pyrénées-Orientales (Roussillon).	*Perpignan*.....	Prades, Céret.
Gers (Guyenne et Gascogne).	*Auch*, sur le Gers...	Condom, Lectoure, Lombez, Mirande.
Aude (Languedoc).	*Carcassonne*.....	Narbonne, Castelnaudary, Limoux.

DÉPARTEMENTS	CHEFS-LIEUX	SOUS-PRÉFECTURES
8. *Petits massifs entre la Seine et la Loire.*		
Yonne (Bourgogne).	*Auxerre*, sur l'Yonne.	Sens, Joigny, Tonnerre, Avallon.
Côte-d'Or (Bourgogne)	*Dijon*.....	Beaune, Châtillon-sur Seine, Semur.
Nièvre (Nivernais).	*Nevers*, sur la Loire.	Cosne, Clamecy, Château-Chinon.
Saône-et-Loire (Bourgogne).	*Mâcon*, sur la Saône.	Autun, Chalon-sur-Saône, Charolles, Louhans.
9. *Jura et Alpes.*		
Belfort (Territoire de).	*C'est tout ce qui nous reste de l'Alsace.*	
Haute-Saône (Franche-Comté).	*Vesoul*.....	Gray, Lure.
Doubs (Franche-Comté).	*Besançon*, sur le Doubs.....	Montbéliard, Pontarlier, Baume-les-Dames.
Jura (Franche-Comté).	*Lons-le-Saunier*...	Dôle, Poligny, Saint-Claude.
Ain (Bourgogne).	*Bourg*.....	Belley, Nantua, Gex. Trévoux.
Haute-Savoie (Savoie).	*Annecy*.....	Thonon, Bonneville, Saint-Julien.
Savoie (Savoie).	*Chambéry*.....	Albertville, Saint Jean-de-Maurienne, Moutiers.
Hautes-Alpes (Dauphiné).	*Gap*.....	Briançon, Embrun.
Basses-Alpes (Provence).	*Digne*.....	Sisteron, Forcalquier, Barcelonnette, Castellane.
Alpes-Maritimes (comté de Nice).	**NICE**.....	Grasse, Puget-Théniers.
Var (Provence).	*Draguignan*.....	TOULON, Brignoles.
Corse.	*Ajaccio*.....	Bastia, Calvi, Corte, Sartène.
10. *Vallée du Rhône et plaine du Languedoc.*		
Rhône (Lyonnais).	**LYON**, sur le Rhône.	Villefranche-sur-Saône.
Isère (Dauphiné).	*Grenoble*, sur l'Isère.	Vienne, Saint-Marcellin, La Tour-du-Pin.
Ardèche (Languedoc).	*Privas*.....	Tournon, Largentière.
Drôme (Dauphiné).	*Valence*.....	Montélimar, Die, Nyons.
Vaucluse (Comtat-Venaissin et Provence).	*Avignon*, sur le Rhône.	Carpentras, Orange, Apt.
Bouches-du-Rhône (Provence).	**MARSEILLE**.....	Aix, Arles.
Gard (Languedoc).	*Nîmes*.....	Alais, Uzès, le Vigan.
Hérault (Languedoc).	*Montpellier*.....	Béziers, Lodève, Saint-Pons.

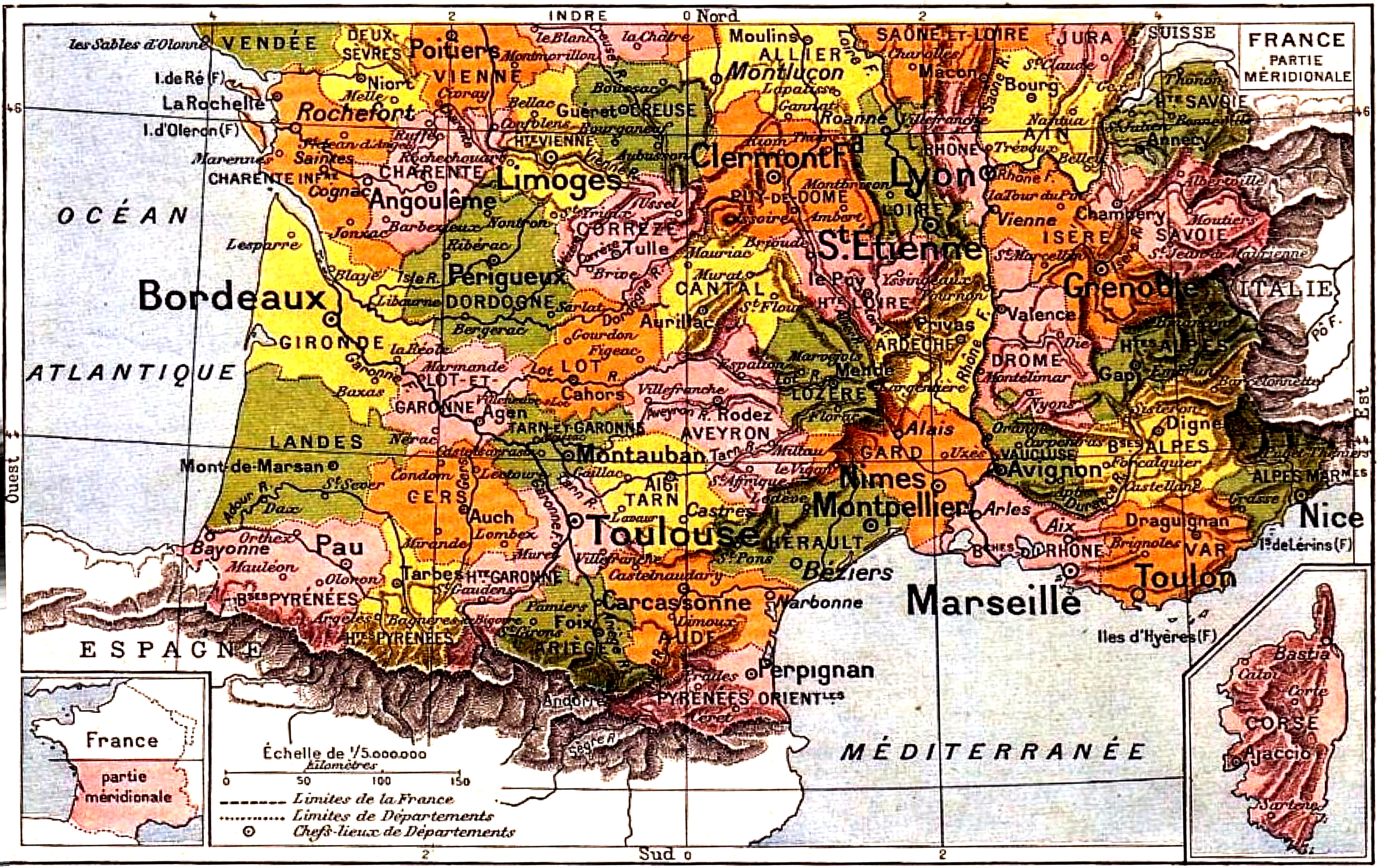

ÉTUDE DES VILLES (*Suite*).

LYON (Rhône) (524000 hab.), la troisième ville de France; **soie**, grand commerce; camp retranché.

Roanne (Loire), sur la Loire; étoffes de laine et de coton.

Clermont-Ferrand (Puy-de-Dôme), marché agr.

Limoges (Haute-Vienne), sur la Vienne; porcelaine et faïence.

Angoulême (Charente), sur la Charente.

Rochefort (Charente-Inférieure), sur la Charente; port militaire.

SAINT-ÉTIENNE (Loire), sur le Furens; houille, rubans de soie; fabrique d'armes.

Grenoble (Isère), sur l'Isère; place forte; gants.

BORDEAUX (Gironde), s. la Garonne; ville superbe; grand commerce avec l'Amérique du Sud; vins.

Montauban (Tarn-et-Garonne), grains, farines.

TOULOUSE (Haute-Garonne), sur la Garonne; commerce entre l'Atlantique et la Méditerranée.

Nîmes (Gard), tapis; vins; monuments romains.

Montpellier (Hérault), commerce vins, eaux-de-vie.

MARSEILLE (Bouches-du-Rhône) (552000 hab.), le premier port de commerce de la France et le huitième du monde; fabrique de savon et d'huiles.

Toulon (Var), grand port de guerre sur la Méd.

Nice (Alpes-Maritimes), ville d'hiver, fleurs.

FRANCE

PAR DÉPARTEMENTS

DEVOIRS

[Consulter la carte.]

1 Qu'est-ce qu'un département? (n° 87.)
2. En combien de départements la France est-elle divisée?
3. Quels sont, avec leur chef-lieu, les départements traversés par la Seine?
4. — par la Marne?
5. — par l'Aube?
6. — par l'Aisne?
7. — par l'Oise?
8. — par la Somme?
9. — par l'Yonne?
10. — par l'Eure?
11. Quels sont, avec leur chef-lieu, les départements baignés par la Manche, depuis le Pas-de-Calais jusqu'au Finistère?
12. Par quel département le département de la Seine est-il entouré?
13. De quel département chacune des villes suivantes est-elle le chef-lieu : Paris? — Rouen? — Troyes? — Beauvais? — Laon? — Chaumont? — Évreux? — Versailles? — Auxerre? — Dijon? — Caen? — Saint-Lô?
14. Quel est, avec son chef-lieu, le département le plus septentrional?
15. — le plus occidental?
16. Quels sont les chefs-lieux des départements suivants : Seine? — Seine-et-Oise? — Aube? — Eure? — Seine-Inférieure? — Marne? — Côte-d'Or? — Haute-Marne? — Yonne? — Seine-et-Marne? — Oise? — Aisne? — Somme? — Eure-et-Loir?
17. Quels sont, avec leur chef-lieu, les départements traversés par la Loire?
18. — par la Nièvre?
19 — par la Maine et ses affluents?
20. — par l'Allier?
21. — par le Cher?
22. — par l'Indre?
23. — par la Vienne et par la Creuse?
24. — par la Vilaine?
25. Citez un département qui occupe la presqu'île du Cotentin.
26. Citez trois départements qui occupent la presqu'île de Bretagne.
27. Citez, avec leur chef-lieu, les départements baignés par l'océan Atlantique, depuis le Finistère jusqu'aux Basses-Pyrénées.
28. De quel département chacune des villes suivantes est-elle le chef-lieu : Orléans? — Angers? — Rennes? — Tours? — Nantes? — Saint-Étienne? — Moulins? — Nevers? — Le Puy? — Bourges? — Poitiers? — Châteauroux? — Vannes? — Quimper? — Saint-Brieuc? — La Roche-sur-Yon? — Guéret? — Limoges? — Alençon? — Le Mans? — Blois?
29. Quels sont, avec leur chef-lieu, les départements qui entourent le département de la Nièvre? — de la Vienne? — de la Creuse?
30. Quels sont, avec leur chef-lieu, les départements traversés par la Garonne?
31. — par l'Ariège?
32. — par le Tarn et par l'Aveyron?
33. — par le Lot?
34. — par la Dordogne et par ses affluents?
35. Quel est le chef-lieu du département de la Gironde? — de la Haute-Garonne? — de l'Ariège? — du Lot? — des Basses-Pyrénées? — des Landes? — du Lot-et-Garonne? — de l'Aveyron? — du Tarn? — du Tarn-et-Garonne?
36. Quels sont, avec leur chef-lieu, les départements qui entourent le département du Gers? — — du Tarn? — de la Dordogne? — du Cantal? — de la Haute-Vienne? — du Lot? — de l'Aveyron? — de la Haute-Garonne?
37. Quel nom la Garonne prend-elle avant de se jeter dans l'Océan?
38. De quel département chacune des villes suivantes est-elle le chef-lieu : Pau? — Tarbes? — Foix? — Toulouse? — Albi? — Agen? — Aurillac? — Tulle? — Périgueux? — Bordeaux? — Mont-de-Marsan? — Rodez?
39. Quels sont, avec leur chef-lieu, les départements baignés par la mer Méditerranée?
40. Citez, avec leur chef-lieu, les départements frontières, entre la France et l'Espagne.
41. — entre la France et l'Italie.
42. Quels sont, avec leur chef-lieu, les départements situés sur la rive droite du Rhône?
43. — sur la rive gauche?
44. Citez une grande ville bâtie au confluent de la Saône et du Rhône.
45. Quels sont les départements arrosés par l'Aude?
46 — par l'Hérault?
47. — par la Saône?
48. — par le Doubs?
49. — par l'Ain?
50. — par l'Isère?
51. — par la Drôme?
52. — par la Durance?
53. De quel département chacune des villes suivantes est-elle le chef-lieu : Vesoul? — Besançon? — Dijon? — Lons-le-Saunier? — Mâcon? — Bourg? — Annecy? — Chambéry? — Grenoble? — Lyon? — Saint-Étienne? — Valence? — Privas? — Avignon? — Nîmes? — Montpellier? — Carcassonne? — Perpignan?
54. Quels sont, avec leur chef-lieu, les départements frontières de la Belgique?
55. — de l'Alsace-Lorraine?
56. — de la Suisse?
57. — Quels sont, avec leur chef-lieu, les départements arrosés par la Moselle?
58 — par la Meurthe?
59. — par la Meuse?
60. — par l'Escaut?
61. Citez deux grandes villes, l'une sur la Moselle, l'autre sur l'Ill, qui nous ont été enlevées par la Prusse en 1871.
62 De quel département chacune des villes suivantes est-elle le chef-lieu : Épinal? — Bar-le-Duc — Mézières? — Lille? — Nancy? — Arras?

Questions sur les anciennes provinces.

63. De quelle ancienne province chacune des villes suivantes était-elle la capitale : Lille? — — Rouen? — Paris? — Rennes? — Le Mans? — Dijon? — Besançon? — Troyes? — Nancy? — Angers?
64. Citez, avec leur capitale, les provinces frontières de l'Espagne — baignées par la Méditerranée, — par l'océan Atlantique, — frontières de l'Italie, — de la Suisse, — des Pays-Bas.
65. Quelles étaient les provinces du centre? — celles situées sur les frontières d'Italie? — de Suisse? — d'Allemagne?
66. Quelle était la province la plus septentrionale? — la plus méridionale? — la plus occidentale?
67. Citez les provinces qui avaient pour capitale : Lyon. — Arras. — Amiens. — Bourges. — Angoulême. — La Rochelle. — Limoges. — Clermont-Ferrand. — Moulins. — Nevers. — Avignon. — Chambéry.
68. Quelles sont les deux provinces que l'Allemagne nous a prises en 1871?



Notre-Dame de Paris.



Château de Pau.



Arènes de Nimes.

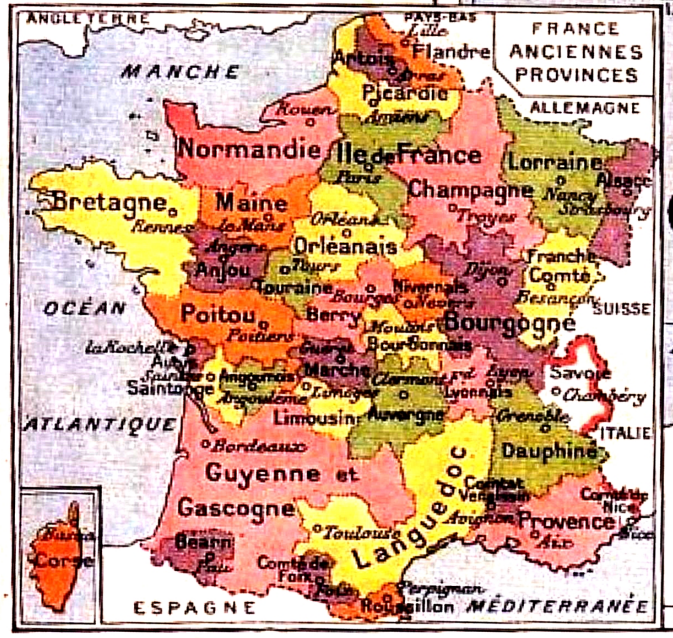

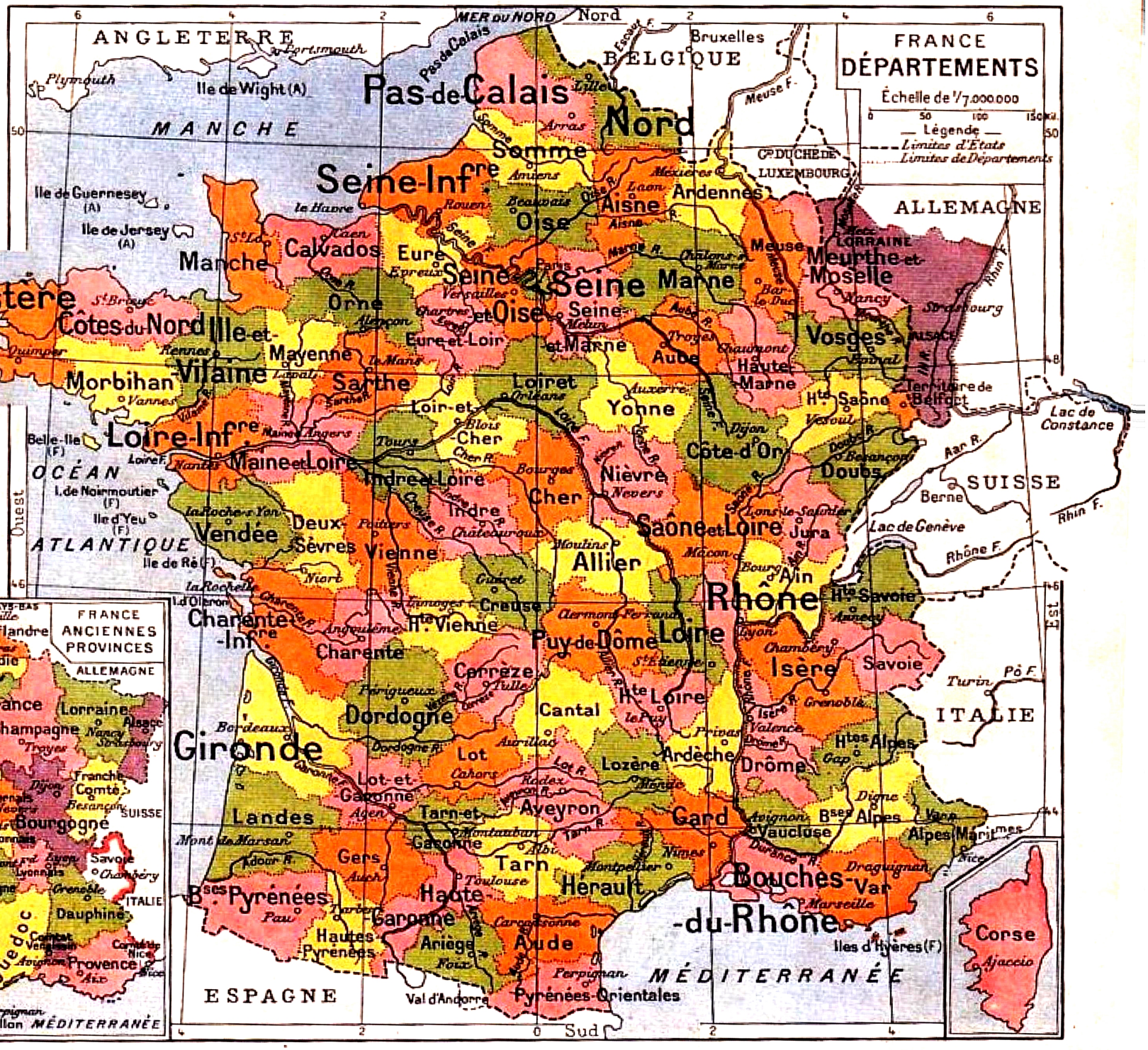

EUROPE

108. Qu'est-ce que l'Europe?

L'Europe est une des cinq parties du monde.

109. Combien de fois l'Europe est-elle plus grande que la France?

L'Europe est **dix-neuf** fois plus grande que la France.

109 *bis.* Quelles sont les principales montagnes de l'Europe?

Les principales montagnes de l'Europe sont : les **ALPES**, entre la France et l'Italie ; — les **Pyrénées**, entre la France et l'Espagne ; — les *Apennins*, en Italie ; — les monts **Karpathes**, dans l'empire d'Autriche ; — les monts *Balkans*, en Turquie ; — le **Caucase**, au sud de la Russie.

109 *ter.* Nommez les principaux fleuves de l'Europe.

La **Vistule** et l'**Oder** (Allemagne) se jettent dans la mer Baltique. — L'**Elbe** (Allemagne), qui passe à Hambourg ; le **RHIN** (Suisse, Allemagne, Hollande), et la **Tamise** (Angleterre), qui passe à Londres, se jettent tous trois dans la mer du Nord. — La **Seine** (France), qui passe à Paris, se jette dans la Manche. — Le **Pô** (Italie) se jette dans l'Adriatique. — Le **DANUBE** (Autriche-Hongrie), qui passe à Vienne et à Buda-Pest, se jette dans la mer Noire. — Le **Volga** (Russie) se jette dans la mer Caspienne.

110. En combien de contrées ou États principaux divise-t-on l'Europe?

On divise l'Europe en vingt-deux contrées.

111. Indiquez les quatre contrées du nord de l'Europe.

Les **ILES BRITANNIQUES** (Grande-Bretagne et Irlande), cap. **Londres**, grand port sur la Tamise ; — le *Danemark*, cap. *Copenhague ;* — la *Suède*, cap. *Stockholm*, port sur la Baltique ; — la *Norvège*, cap. *Christiania*, port sur le détroit du Skager-Rack.

112. Quelle est la contrée de l'est de l'Europe?

La **RUSSIE**, cap. **Saint-Pétersbourg**, port à l'embouchure de la Néva, sur la Baltique.

113. Quelles sont les sept contrées du centre de l'Europe?

La **FRANCE**, cap. **PARIS**, sur la Seine ; — la *Belgique*, cap. *Bruxelles ;* — la *Hollande*, cap. *La Haye ;* — l'empire d'**Allemagne**, cap. **Berlin** ; — l'empire d'**Autriche-Hongrie**, cap. **Vienne**, sur le Danube ; — la *Suisse*, cap. *Berne ;* — le *Luxembourg*, cap. *Luxembourg*.

114. Quelles sont les dix contrées du midi de l'Europe?

Le *Portugal*, cap. *Lisbonne*, port sur le Tage ; — l'*Espagne*, cap. *Madrid ;* — l'**Italie**, cap. **Rome**, sur le Tibre, siège de la Papauté ; — la *Turquie* ou *Empire Ottoman*, cap. *Constantinople*, port sur le Bosphore ; — la *Roumanie*, cap. *Bucarest ;* — la *Serbie*, cap. *Belgrade*, sur le Danube ; — le *Monténégro*, cap. *Cettigne ;* — la *Bulgarie*, cap. *Sofia ;* — la *Grèce*, cap. *Athènes ;* — l'*Albanie*, cap. *Durazzo*.

DEVOIRS

1. Qu'est-ce qu'une presqu'île (n° 41)?
2. Citez une presqu'île au nord du Danemark.
3. Quelles sont, avec leurs capitales, les deux contrées renfermées dans cette presqu'île?
4. Citez une autre presqu'île au sud-ouest de la France.
5. Quels sont, avec leurs capitales, les États renfermés dans cette presqu'île?
6. Citez une presqu'île ayant la forme d'une botte, et située au sud-est de la France.
7. Quelle est la capitale de l'Italie?
8. Quelles sont les deux îles appelées Iles Britanniques?
9. Quel nom donne-t-on aux deux grandes divisions de l'île de Grande-Bretagne?
10. Sur quel fleuve est situé Saint-Pétersbourg? — Londres? — Paris? — Rome? — Vienne? — Buda-Pest? — Belgrade?
11. Sur quelle rivière est situé Hambourg?
12. Qu'est-ce qu'un détroit (n° 44)?
13. Sur quel détroit est situé Copenhague? — Christiania? — Constantinople?
14. Sur quelle mer est situé Stockholm? — — Lisbonne?
15. Citez un grand fleuve, le plus grand de l'Europe, qui arrose Vienne, Buda-Pest et Belgrade, et qui se jette dans la mer Noire.
16. Quels États ce grand fleuve traverse-t-il?
17. Quelle est la chaîne de montagnes qui sépare la France de l'Espagne?
18. — qui sépare la France de l'Italie?
19. — qui traverse l'Italie dans toute sa longueur?
20. — qui couvre une partie de l'Autriche?
21. Quelles sont les capitales situées sur la Tamise? — Sur la Néva? — Sur le Danube? — Sur la Seine? — Sur le Tibre? — Sur le Bosphore?
22. Quelle est la capitale de la Grèce? — De la France? — De la Turquie? — Des Iles Britanniques? — De la Belgique? — De l'Espagne? — Du Portugal? — De la Hollande? — De la Russie? — De la Suède? — De la Norvège? — De la Roumanie? — De la Serbie? — Du Monténégro? — De l'Autriche-Hongrie? — De la Suisse? — de l'Albanie?
23. Citez une mer entre la Russie et le Danemark.
24. — entre la Suède et la Russie.
25. — entre l'Angleterre et la France.
26. — entre l'Italie et l'Autriche.
27. — entre la Russie et la Turquie d'Asie.
28. — entre la Grèce et la Turquie d'Asie.
29. Quel est l'Océan qui baigne la partie ouest de l'Europe? - la partie nord?
30. Quelle est la grande mer qui baigne tout le sud de l'Europe?
31. Par quels monts, par quel fleuve et par quelles mers l'Europe est-elle séparée de l'Asie?
32. Par quel monts l'Europe est-elle séparée de l'Asie au sud-est?
33. Quelles sont, au nord, au sud, à l'est, à l'ouest, les bornes de la France? — De l'Allemagne? — De la Russie? — Du royaume de Suède et Norvège? — De l'empire d'Autriche-Hongrie? — De l'Italie? — De l'Espagne? — Du Portugal? — De la Grèce? — De la Turquie? — De la Suisse? — De la Belgique? — De la Hollande? — De la Serbie? — De la Roumanie?

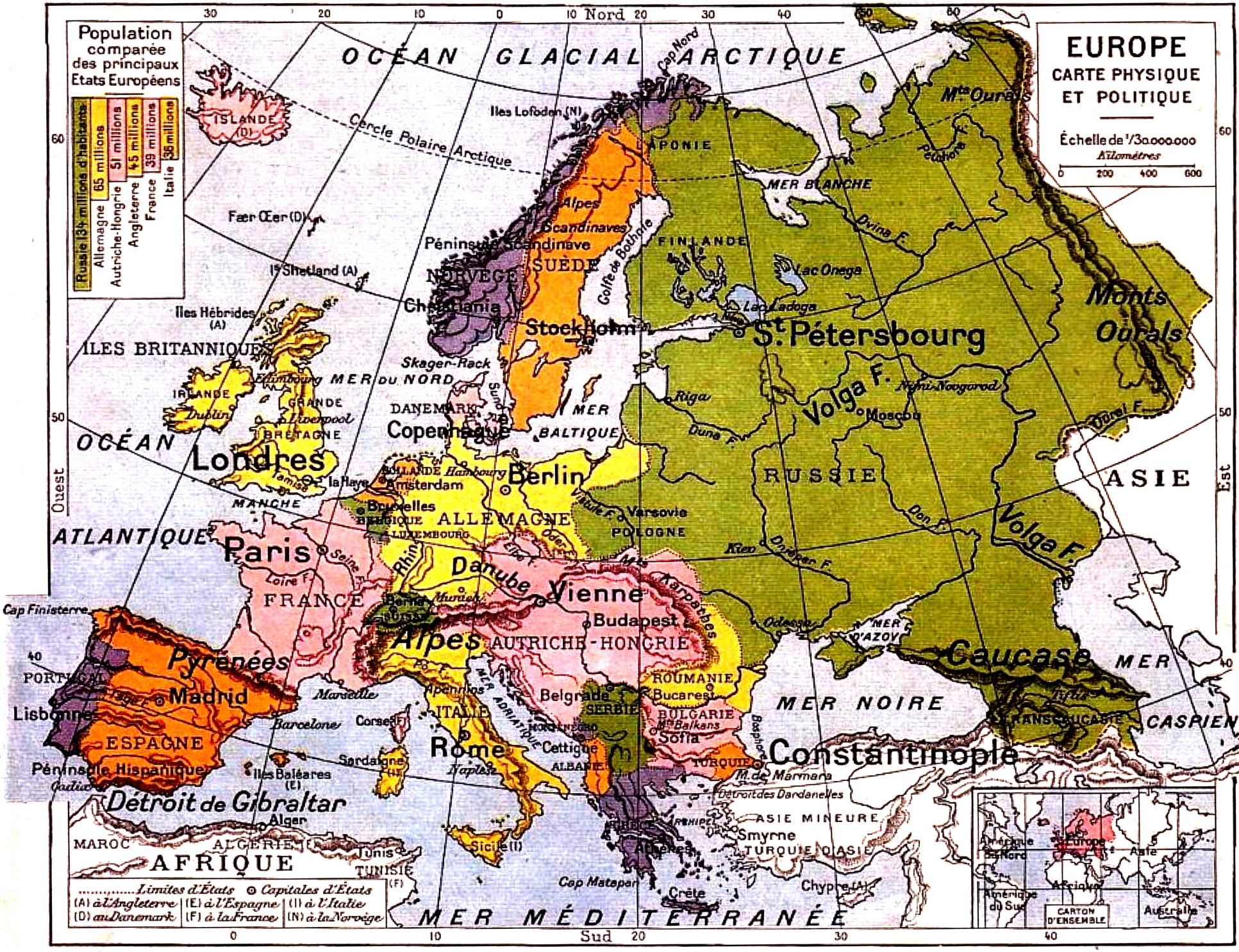
EUROPE
CARTE PHYSIQUE ET POLITIQUE
Échelle de 1/30.000.000
Kilomètres
0 200 400 600
Population comparée des principaux Etats Européens
Russie (34 millions d'habitants)
Allemagne 65 millions
Autriche-Hongrie 51 millions
Angleterre 45 millions
France 39 millions
Italie 36 millions
OCÉAN GLACIAL ARCTIQUE
Cap Nord
Cercle Polaire Arctique
Mts Ourals
ISLANDE (D)
Iles Lofoden (N)
LAPONIE
MER BLANCHE
Alpes Scandinaves
Péninsule Scandinave
Golfe de Bothnie
FINLANDE
Lac Onega
Lac Ladoga
NORVEGE
SUÈDE
Christiania
Stockholm
St. Pétersbourg
Monts Ourals
Iles Hébrides (A)
ILES BRITANNIQUES
Skager-Rack
MER DU NORD
Hambourg
IRLANDE
Dublin
GRANDE BRETAGNE
Liverpool
DANEMARK
Copenhague
MER BALTIQUE
Riga
Volga F.
Moscou
Nijni-Novgorod
Oural F.
OCÉAN ATLANTIQUE
Londres
Tamise
la Haye
Amsterdam
HOLLANDE
Hambourg
Berlin
RUSSIE
ASIE
MANCHE
Bruxelles
BELGIQUE
ALLEMAGNE
LUXEMBOURG
Varsovie
POLOGNE
Vistule F.
Don F.
Dniepr F.
Kiev
Volga F.
Paris
Seine
Loire F.
Rhin
Elbe
Oder
Danube
Vienne
Carpathes
FRANCE
Berne
Munich
Budapest
Alpes
AUTRICHE-HONGRIE
Odessa
MER D'AZOV
Caucase
MER NOIRE
Cap Finisterre
Pyrénées
PORTUGAL
Tage
Madrid
Lisbonne
Marseille
Apennins
MER ADRIATIQUE
Belgrade
SERBIE
ROUMANIE
Bucarest
BULGARIE
Balkans
Sofia
Barcelone
Corse (F)
ITALIE
Rome
Naples
Monténégro
Cettigne
ALBANIE
Bosphore
TURQUIE
M. de Marmara
Détroit des Dardanelles
Constantinople
TRANSCAUCASIE
CASPIENNE
ESPAGNE
Péninsule Hispanique
Gadix
Iles Baléares (E)
Sardaigne (I)
Détroit de Gibraltar
Alger
ASIE MINEURE
Smyrne
TURQUIE D'ASIE
MAROC
ALGÉRIE (F)
AFRIQUE
Tunis
TUNISIE (F)
Sicile (I)
Athènes
GRÈCE
Cap Matapan
Crète
Chypre (A)
MER MÉDITERRANÉE
Limites d'États
Capitales d'États
(A) à l'Angleterre
(D) au Danemark
(E) à l'Espagne
(F) à la France
(I) à l'Italie
(N) à la Norvège
Amérique Boréale
Europe
Asie
Afrique
Amérique du Sud
Australie
CARTON D'ENSEMBLE
Ouest
Est
Nord
Sud

ASIE

115. Quelle est l'étendue de l'Asie par rapport à la France et à l'Europe?

L'Asie est **soixante-seize fois** plus grande que la France, et **quatre fois** plus grande que l'Europe.

116. Quel est le principal massif montagneux de l'Asie?

Le principal massif montagneux de l'Asie est le grand Plateau central étayé vers le sud aux monts **Himalaya**, les plus hauts du globe (8000 mètres).

116 *bis.* Quels sont les principaux fleuves de l'Asie?

Les principaux fleuves de l'Asie sont : le **Hoang-ho**, ou fleuve *Jaune;* — le **Yang-Tsé-Kiang** ou fleuve *Bleu;* — le **Gange**; — le **Sind** ou **Indus**.

117. Quelles sont les principales divisions de l'Asie?

Les principales divisions de l'Asie sont l'immense plaine glacée de la **Sibérie**, qui fait partie de l'empire Russe; — le vaste **état Chinois**, cap. *Pékin;* — l'empire du **Japon**, composé de deux îles principales, cap. Tokio; — la presqu'île de l'**Indo-Chine**, qui comprend plusieurs États; — la presqu'île de l'**Inde**, qui appartient aux Anglais et dont le chef-lieu est *Delhi;* — l'empire **Perse** et la presqu'île de l'**Arabie**.

118. Quelles sont les possessions françaises en Asie?

Les possessions françaises en Asie sont : la **Cochinchine française**, chef-lieu *Saïgon*, et le **Tonkin**, cap. *Hanoï*, dans l'Indo-Chine; — quelques établissements dans l'Indoustan, chef-lieu *Pondichéry*.

La France protège aussi dans l'Indo-Chine, le *Cambodge* et l'*Annam*.

AFRIQUE

119. Quelle est l'étendue de l'Afrique par rapport à la France et à l'Europe?

L'Afrique est **cinquante-sept fois** plus grande que la France et **trois fois** plus grande que l'Europe.

119 *bis.* Quels sont les fleuves les plus importants de l'Afrique?

Les fleuves les plus importants de l'Afrique sont : le **Niger** et le **Congo** qui se jettent dans l'océan Atlantique; — le **Nil**, qui se jette dans la Méditerranée.

120. Quelles sont les principales divisions de l'Afrique?

Les principales divisions de l'Afrique sont : l'**Égypte**, fertilisée par le **Nil**, capitale *le Caire;* — l'**Algérie**, chef-lieu *Alger;* — le grand désert du **Sahara**; — la colonie du **Cap de Bonne-Espérance** ou simplement du **Cap**, qui appartient aux Anglais.

121. Quelles sont les principales possessions françaises en Afrique?

Les principales possessions françaises en Afrique sont : l'**Algérie**, chef-lieu *Alger;* — la **Tunisie**, cap. Tunis, pays protégé, mais véritable colonie; — le **Sénégal**, chef-lieu *Saint-Louis;* — une grande partie du **Soudan**; — le **Congo français**; — l'île de **Madagascar**; — l'île de la **Réunion**, qui produit le café et la canne à sucre.

La France protège aussi le *Maroc*.

AUSTRALIE (Océanie occidentale)

122. A quel État l'Australie appartient-elle?

L'**Australie** appartient aux Anglais; elle a pour villes principales : *Sydney* et *Melbourne*.

123. Quelles sont les îles principales de l'Océanie?

Les îles principales de l'Océanie sont : la *Nouvelle-Zélande* (aux Anglais); — les îles de la *Sonde* (aux Hollandais), chef-lieu *Batavia;* — les îles *Philippines*, chef-lieu *Manille;* — la *Nouvelle-Calédonie* (aux Français), chef-lieu *Nouméa*.

DEVOIRS

1. Quelle est la mer qui sépare l'Europe de l'Afrique?
2. — l'Afrique de l'Arabie?
3. Citez un détroit qui sépare l'Afrique de l'Espagne.
4. Quelles sont, du nord à l'est, au sud et à l'ouest, les mers qui baignent l'Afrique?
5. Par quelle langue de terre, aujourd'hui coupée par un canal, l'Afrique est-elle réunie à l'Asie?
6. Quel est l'océan qui baigne, à l'ouest, l'Europe et l'Afrique?
7. Quel est l'océan qui baigne, à l'est, l'Asie et l'Australie?
8. Quel océan traverserait un navire qui irait d'Angleterre à la colonie anglaise du Cap.
9. Quelles mers et quel isthme traverserait un navire qui irait de Marseille à l'île française de la Réunion?
10. — de Marseille au gouvernement français de Pondichéry?
11. — de Marseille à la Cochinchine française?
12. — de Marseille en Chine?
13. — de Marseille à la Nouvelle-Calédonie?

ANIMAUX DE L'ANCIEN CONTINENT (EUROPE, ASIE, AFRIQUE).

Angle 1 (Europe). — 1. Ane. — 2. Chèvre. — 3. Mouton. — 4. Vache. — 5. Chat. — 6. Poule. — 7. Canard.
Angle 2 (Europe) — 1. Porc. — 2. Renne. — 3. Cheval. — 4. Chien. — 5. Coq, poule. — 6. Faisan. — 7. Lapin.
Angle 3 (Afrique). — 1. Girafe. — 2. Zèbre. — 3. Hippopotame. — 4. Serpent. — 5. Lion et lionne. — 6. Crocodile. — 7. Tortue. — 8. Autruche.
Angle 4 (Asie). — 1. Chameau. — 2. Éléphant. — 3. Antilope. — 4. Tigre. — 5. Rhinocéros.

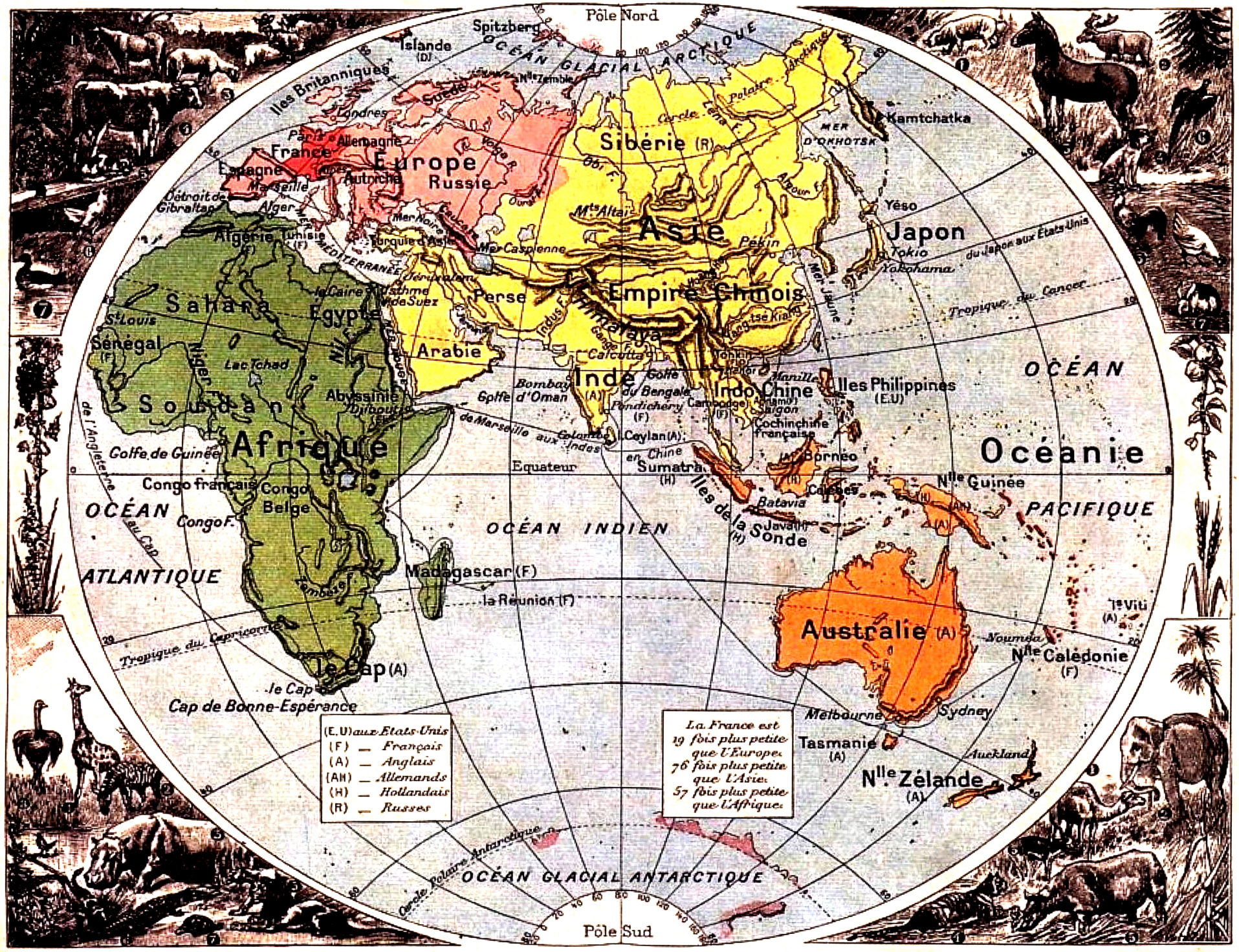
Pôle Nord
Spitzberg
Islande (D)
OCÉAN GLACIAL ARCTIQUE
Iles Britanniques
Suède
Nlle Zemble
Londres
Paris
Allemagne
France
Espagne
Marseille
Autriche
Europe
Russie
Détroit de Gibraltar
Alger
Algérie (F)
Tunisie (F)
Mer Noire
Turquie d'Asie
Mer Caspienne
Sibérie (R)
Cercle Polaire Arctique
Lena F.
Obi F.
Mts Altaï
Asie
Pékin
Kamtchatka
MER D'OKHOTSK
Yéso
Japon
Tokio
Yokohama
du Japon aux États-Unis
Mer Jaune
Tropique du Cancer
Sahara
Égypte
le Caire
Isthme de Suez
Perse
Empire Chinois
Himalaya
Indus F.
Ganges F.
Calcutta
Tonkin
Manille
Iles Philippines (E.U)
St Louis
Sénégal (F)
Niger F.
Lac Tchad
Nil F.
Arabie
Bombay
Golfe d'Oman
Inde (A)
Golfe du Bengale
Pondichéry (F)
Indo Chine
Cambodge (F)
Saïgon
Cochinchine française
Soudan
Abyssinie
Djibouti
de Marseille aux Indes
Colombo
Ceylan (A)
en Chine
Sumatra (H)
Bornéo
Océanie
Golfe de Guinée
Afrique
Equateur
Nlle Guinée
Congo français
Congo Belge
Congo F.
OCÉAN ATLANTIQUE
OCÉAN INDIEN
Iles de la Sonde (H)
Batavia
Java (H)
Célèbes
PACIFIQUE
Madagascar (F)
la Réunion (F)
Zambèze F.
Tropique du Capricorne
Australie (A)
Ile Viti (A)
Nouméa
Nlle Calédonie (F)
le Cap (A)
le Cap
Cap de Bonne-Espérance
Melbourne
Sydney
Tasmanie (A)
Auckland
Nlle Zélande (A)
(E.U) aux États-Unis
(F) — Français
(A) — Anglais
(AH) — Allemands
(H) — Hollandais
(R) — Russes
La France est 19 fois plus petite que l'Europe. 76 fois plus petite que l'Asie. 57 fois plus petite que l'Afrique.
Cercle Polaire Antarctique
OCÉAN GLACIAL ANTARCTIQUE
Pôle Sud

AMÉRIQUE

124. En quelle année et par qui l'Amérique a-t-elle été découverte ?

L'**Amérique** a été découverte en 1492 par **Christophe Colomb.**

125. Puisque Colomb découvrit l'Amérique, la partie du monde qu'il a découverte ne devrait-elle pas s'appeler Colombie ?

Oui ; mais un peu plus tard, un autre navigateur, **Amér**ic *Vespuce*, ayant publié le récit d'un voyage dans le Nouveau Monde, on prit l'habitude d'appeler le Nouveau Monde « terre d'Amér**ic** » ou **Amérique.** Cependant une contrée de l'Amérique a conservé le nom de **Colombie.**

126. Quelle est l'étendue de l'Amérique par rapport à la France et à l'Europe ?

L'Amérique est **soixante-treize fois** plus grande que la France, et **quatre fois** plus grande que l'Europe.

127. En combien de parties principales l'Amérique se divise-t-elle ?

L'Amérique se divise en deux parties principales : l'Amérique du **Nord** et l'Amérique du **Sud.**

128. Par quel isthme l'Amérique du Nord est-elle réunie à l'Amérique du Sud ?

L'Amérique du Nord est réunie à l'Amérique du Sud par l'**isthme de Panama**, qui n'a que 75 kilomètres de largeur.

129. Quel nom donne-t-on aux groupes d'îles situés entre les deux Amériques ?

On donne le nom d'**Antilles** aux groupes d'îles situés entre les deux Amériques.

130. Quelles sont les principales montagnes de l'Amérique ?

Les principales montagnes de l'Amérique sont : les monts **Rocheux**, dans l'Amérique du Nord, et la **Cordillère des Andes**, dans l'Amérique du Sud.

131. Quels sont les principaux fleuves de l'Amérique ?

Les principaux fleuves de l'Amérique sont : le **Mississipi**, dans l'Amérique du Nord, et l'**Amazone**, dans l'Amérique du Sud, le fleuve du monde qui roule le plus grand volume d'eau.

132. Quels sont les principaux États de l'Amérique du Nord ?

Les principaux États de l'Amérique du Nord sont : la *Puissance du Canada* (aux Anglais) ; la république des **États-Unis**, cap. **Washington**, ville principale **New-York**, grand port sur l'océan Atlantique, — la république du *Mexique*, cap. *Mexico.*

133. Quels sont les principaux États de l'Amérique du Sud ?

Les principaux États de l'Amérique du Sud sont : le **Brésil**, cap. *Rio de Janeiro*, beau port sur l'Atlantique ; — la république du *Pérou*, cap. *Lima ;* — la république *Argentine* ou de la *Plata*, cap. *Buenos-Ayres*, port sur le Rio de la Plata ; — la république du *Chili*, cap. *Santiago*, ville principale *Valparaiso*, port sur l'océan Pacifique.

134. Quelles sont les possessions françaises en Amérique ?

Les possessions françaises en Amérique sont : les îlots *Saint-Pierre* et *Miquelon*, près de Terre-Neuve, dans l'Amérique du Nord ; — les îles de la **Guadeloupe** et de la **Martinique**, qui font partie des Antilles ; — la **Guyane** française, chef-lieu *Cayenne*, port sur l'Atlantique.

DEVOIRS

1. Par qui et en quelle année l'Amérique a-t-elle été découverte ?
2. Pourquoi toute l'Amérique ne s'appelle-t-elle pas Colombie ?
3. Par quel océan l'Amérique est-elle bornée à l'est ?
4. Par quel océan l'Amérique est-elle bornée à l'ouest ?
5. Quel océan faut-il traverser pour se rendre de France en Amérique ?
6. — des Iles Britanniques (Angleterre) en Amérique ?
7. — d'Espagne en Amérique ?
8. — d'Afrique en Amérique ?
9. En combien de parties principales divise-t-on l'Amérique ?
10. Quel nom donne-t-on à la partie septentrionale de l'Amérique ?
11. Quel nom donne-t-on à la partie méridionale de l'Amérique ?
12. Quel nom donne-t-on à la partie de l'Amérique située entre les deux Amériques ?
13. Par quel isthme l'Amérique du Nord est-elle réunie à l'Amérique du Sud ?
14 Citez un grand fleuve de l'Amérique du Nord.
15. Citez un grand fleuve de l'Amérique du Sud.
16. Citez une grande république de l'Amérique du Nord.
17. Quelle est la capitale et quelles sont les villes principales de cette république ?
18. Citez une chaîne de montagnes de l'Amérique du Nord.
19. — de l'Amérique du Sud.
20. A quels ports s'arrête un navire qui va de France au Brésil et à la Plata ?

ANIMAUX DU NOUVEAU-MONDE (AMÉRIQUE) ET DE L'OCÉANIE.

Angle 1 (Amérique du Nord). — 1. Aigle. 2. Ours noir. — 3. Bison. — 4. Castor.
Angle 2 (Amérique du Sud). — 1. Vampire. — 2. Tapir. — 3. Boa. — 4. Pécari.
Angle 3 (Amérique du Sud). — 1. Condor. — 2. Lama. — 3. Singe. — 4. Fourmilier. — 5. Tatou. — 6. Tortue.
Angle 4 (Australie, Océanie). — 1. Perroquet. — 2. Koala. — 3. Cygne. — 4. Thylacine. — 5. Kangourou. — 6. Casoar.

Pôle Nord
Asie
Détroit de Béring
Mer de Béring
Alaska
Iles Aléoutiennes
Groenland (D)
Islande (D)
Angleterre
France
Europe
Espagne
Détroit de Gibraltar
C. Farewell
Puissance du Canada (A)
Terre-Neuve (A)
I. St Pierre (F)
I. Miquelon (F)
Amérique du Nord
Québec
New-York
Washington
Rocheux
Mississipi
États-Unis
Californie
San Francisco
du Japon aux États-Unis, 12 jours
de France au Mexique et aux Antilles, 18 jours
New-York, 6 jours
de France à
Afrique
St Louis
Sénégal
Niger F.
OCÉAN
Tropique du Cancer
G. du Mexique
Mexique
Cuba
Antilles
Mexico
Jamaïque (A)
Haïti
Guadeloupe (F)
Martinique (F)
Iles Sandwich (E.U)
OCÉAN
Amérique Centrale
Colon
Vénézuela
Cayenne
Guyane franç.se
Isthme de Panama
Colombie
Équateur
de France au Brésil à la Plata 21 jours
Amazone F.
Océanie
Pérou
Brésil
ATLANTIQUE
Pernambouc
Lima
Cordillère des Andes
Amérique du Sud
Bolivie
Rio de Janeiro
Tropique du Capricorne
Ile Viti ou Fidji (A)
I. Tahiti (F)
N.lle Calédonie (F)
Nouméa
PACIFIQUE
Valparaiso
Santiago
Chili
Républ.
Montevideo
Rio de la Plata
Buenos Ayres
Argentine
Auckland
N.lle Zélande (A)
Détroit de Magellan
Cap Horn
Cercle Polaire Antarctique
OCÉAN GLACIAL ANTARCTIQUE
Pôle Sud
(E.U) aux États-Unis
(F) — Français
(A) — Anglais
(D) — Danois
Paris
LA FRANCE
est 7,5 fois plus petite que l'Amérique.

PRINCIPALES RÉGIONS



Région polaire.



Région tempérée.

Région tropicale.

PRINCIPALES RACES D'HOMMES



Caucasien. Chinois. Nègre d'Afrique.

Arabe. Hindou. Esquimau.

Peau-Rouge. Javanais. Tasmanien.

Imp. Draeger frères - 176